Тренировочная работа №2 по ГЕОГРАФИИ
11 класс
23 ноября 2026 года
Вариант ГГ2610201

Выполнена: ФИО_____ класс _____

Инструкция по выполнению работы

Тренировочная работа включает в себя 29 заданий: 21 задание с кратким ответом и 8 заданий с развёрнутым ответом. На выполнение тренировочной работы по географии отводится 3 часа (180 минут).

Ответы к заданиям 1–21 записываются в виде числа, последовательности цифр или слова (словосочетания).

Задания 22–29 требуют развёрнутого ответа. В заданиях 22–29 требуется записать полный ответ на поставленный вопрос или решение задачи. На чистом листе укажите номер задания и запишите ответ на него.

Работу выполняйте яркими чёрными чернилами. Допускается использование гелевой или капиллярной ручки.

При выполнении заданий можно пользоваться черновиком. **Записи в черновике не учитываются при оценивании работы.** Также можно использовать географические карты (административная карта России, политическая карта мира) и статистические приложения, выдаваемые с тренировочной работой, для решения практических заданий; непрограммируемый калькулятор.

Баллы, полученные Вами за выполненные задания, суммируются. Постарайтесь выполнить как можно больше заданий и набрать наибольшее количество баллов.

Желаем успеха!

Ответами к заданиям 1–21 являются число, последовательность цифр или слово (словосочетание). Запишите ответ в поле ответа в тексте работы.

1 Посёлок Тауп имеет географические координаты 48º 15′ с.ш. 62º 00′ в.д. Определите, на территории какого государства находится этот поселок.

Ответ: _____.

2 На метеостанциях 1, 2 и 3 были одновременно проведены измерения температуры воздуха и абсолютной (содержания водяного пара в 1 м³ воздуха) влажности воздуха. Полученные значения показаны в таблице. Расположите эти метеостанции в порядке повышения на них относительной влажности воздуха (от наиболее низкой к наиболее высокой).

Метеостанция	Температура воздуха, °С	Содержание водяного пара в 1 м³ воздуха, г
1	+25	10
2	+25	12
3	+25	17

Запишите в таблицу получившуюся последовательность цифр.

Ответ: | | | |

3 Потребление электроэнергии в коммунальном хозяйстве для уличного освещения зависит от продолжительности тёмного времени суток. Расположите перечисленные города России в порядке увеличения продолжительности времени, на которое необходимо 5 ноября включать уличное освещение, начиная с города с наименьшей продолжительностью этого времени.

1) Симферополь
2) Петрозаводск
3) Нижний Новгород

Запишите в таблицу получившуюся последовательность цифр.

Ответ: | | | |

4 Установите соответствие между элементами береговой линии России и их обозначениями на карте: к каждому элементу первого столбца подберите соответствующий элемент из второго столбца.

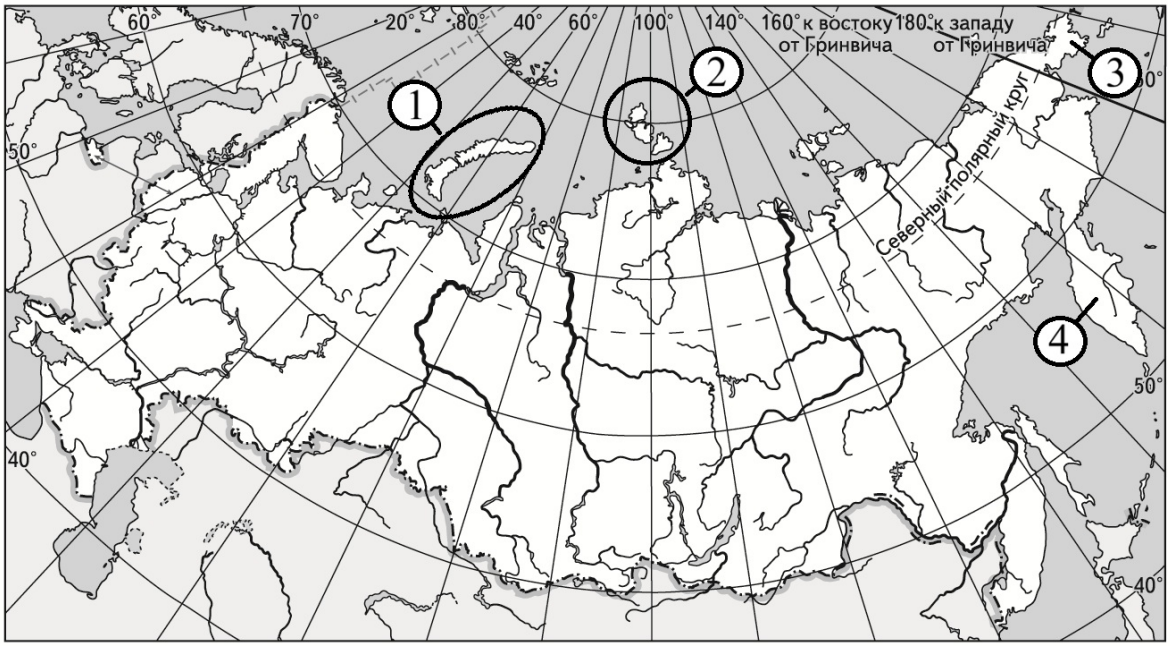

ЭЛЕМЕНТ БЕРЕГОВОЙ ЛИНИИ	ОБОЗНАЧЕНИЕ НА КАРТЕ
А) о-ва Новая Земля	1) 1
Б) п-ов Камчатка	2) 2
В) п-ов Чукотка	3) 3
	4) 4

Запишите в таблицу выбранные цифры под соответствующими буквами.

Ответ:

А	Б	В

5 Прочитайте приведённый ниже текст, в котором пропущен ряд слов (словосочетаний). Выберите из предлагаемого списка слова (словосочетания), которые необходимо вставить на места пропусков.

Демографическая ситуация на Тайване

Остров Тайвань – неотъемлемая часть Китайской Народной Республики. По данным на середину 2026 года, население острова составляло около 20 млн человек, с 2019 г. его численность уменьшилась на 0,4 млн, что связано с _____(А) населения – превышением числа умерших над числом родившихся. Рождаемость в стране за последние 25 лет значительно снизилась, поэтому доля пожилых людей в общей численности населения сильно _____(Б). Власти острова проводят политику, нацеленную на стимулирование рождаемости, чтобы не допустить обострения демографического _____(В).

Выбирайте последовательно одно слово за другим, мысленно вставляя на места пропусков слова (словосочетания) из списка в нужной форме. Обратите внимание на то, что слов (словосочетаний) в списке больше, чем Вам потребуется для заполнения пропусков. Каждое слово (словосочетание) может быть использовано только один раз.

Список слов (словосочетаний)

1) возрастать
2) уменьшаться
3) взрыв
4) кризис
5) естественная убыль
6) миграционная убыль

В данной ниже таблице приведены буквы, обозначающие пропущенные слова (словосочетания). Запишите в таблицу под каждой буквой номер выбранного Вами слова (словосочетания).

Ответ:

А	Б	В

6 Численность населения города – один из основных факторов, определяющих его экономическое и социальное развитие.
Какие три из перечисленных городов России имеют наибольшую численность населения? Запишите в таблицу цифры, под которыми указаны эти города.

1) Нижний Новгород
2) Курган
3) Челябинск
4) Оренбург
5) Ставрополь
6) Уфа

Ответ: | | | |

7 Установите соответствие между страной и диаграммой, отражающей распределение её экономически активного населения по секторам экономики: к каждой позиции, данной в первом столбце, подберите соответствующую позицию из второго столбца.

– промышленность – сельское хозяйство – сфера услуг

СТРАНА	РАСПРЕДЕЛЕНИЕ ЭКОНОМИЧЕСКИ АКТИВНОГО НАСЕЛЕНИЯ
А) Австрия	1) 
Б) Коста-Рика	2) 
В) Чад	3) 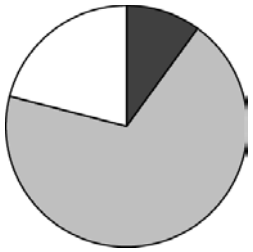

Запишите в таблицу выбранные цифры под соответствующими буквами.

Ответ:

А	Б	В

8 Расположите перечисленные страны в порядке возрастания в них показателя естественного прироста населения (на 1 тыс. жителей), начиная со страны с наименьшим значением этого показателя.

1) Мексика
2) Эфиопия
3) Япония

Запишите в таблицу получившуюся последовательность цифр.

Ответ: | | | |

9 Уровень развития транспортной инфраструктуры является важным условием функционирования хозяйства регионов. В каких трёх из перечисленных регионов густота сети автомобильных дорог наибольшая?
Запишите в таблицу цифры, под которыми указаны эти регионы.

1) Архангельская область
2) Псковская область
3) Ленинградская область
4) Иркутская область
5) Камчатский край
6) Республика Татарстан

Ответ: | | | |

10 На основе анализа данных приведённой ниже таблицы укажите все регионы, в которых в период с 2022 по 2024 г. ежегодно увеличивались объёмы промышленного производства. Запишите цифры, под которыми указаны эти регионы.

Индексы промышленного производства
(в % к предыдущему году)

Регион	2022 г.	2023 г.	2024 г.
1) Владимирская область	106,6	109,4	110,4
2) Воронежская область	98,0	109,9	102,8
3) Ивановская область	101,7	110,0	106,0
4) Калужская область	84,7	111,0	113,3

Ответ: _____.

11 С помощью карты сравните значения средних многолетних минимумов температуры воздуха октября в точках, обозначенных на карте цифрами 1, 2 и 3. Расположите эти точки в порядке повышения температуры.

Средние многолетние минимумы температуры воздуха октября (°С)

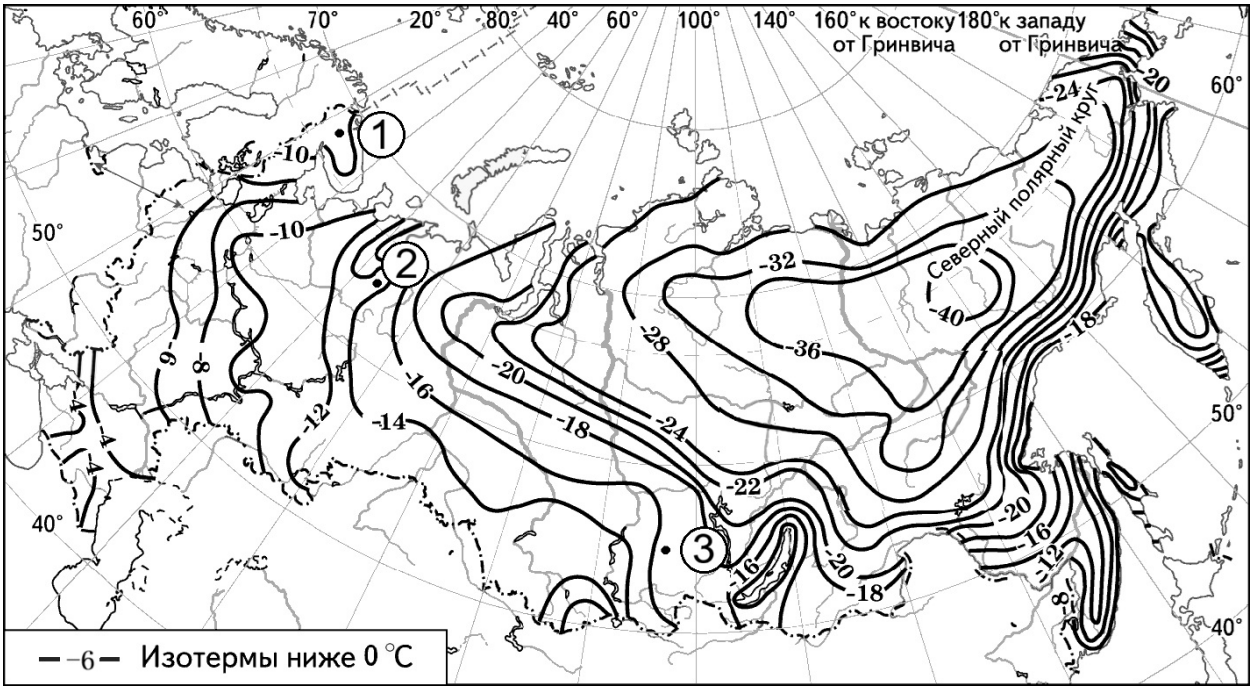

Запишите в таблицу получившуюся последовательность цифр.

Ответ: | | | |

12 Выберите все высказывания с информацией о демографической политике и запишите цифры, под которыми они указаны.

1) Правительство Вьетнама с 2027 года вводит меры поддержки семей – выплаты женщинам, родившим двоих детей до 35 лет.
2) Среди всех стран мира самая высокая рождаемость населения наблюдается в африканских странах – Нигере, Сомали, Демократической Республике Конго и Мали.
3) Сокращение численности населения в Китае в последние годы связано как с естественной, так и с миграционной убылью населения.
4) В настоящее время численность населения мира продолжает увеличиваться, но темпы прироста за последние 50 лет снизились вдвое.
5) Правительство Республики Корея реализует комплекс мер, направленных на увеличение рождаемости.

Ответ: _____.

13 Расположите события в геологической истории Земли в хронологическом порядке, начиная с самого раннего.

1) В каменноугольном периоде начался активный этап формирования суперконтинента Пангеи.
2) В силурийском периоде происходила интенсивная эпоха горообразования в районах столкновения континентов Лаврентии, Балтики и Авалонии.
3) В кембрийском периоде сформировались материки Гондвана и Лаврентия.

Запишите в таблицу получившуюся последовательность цифр.

Ответ: | | | |

14 В единый день голосования 20 сентября 2026 года на выборах в Государственную Думу Российской Федерации избирательные участки во всех регионах страны открылись в восемь утра по местному времени. Используя карту, определите, во сколько часов по московскому времени открылись избирательные участки в Калининградской области.

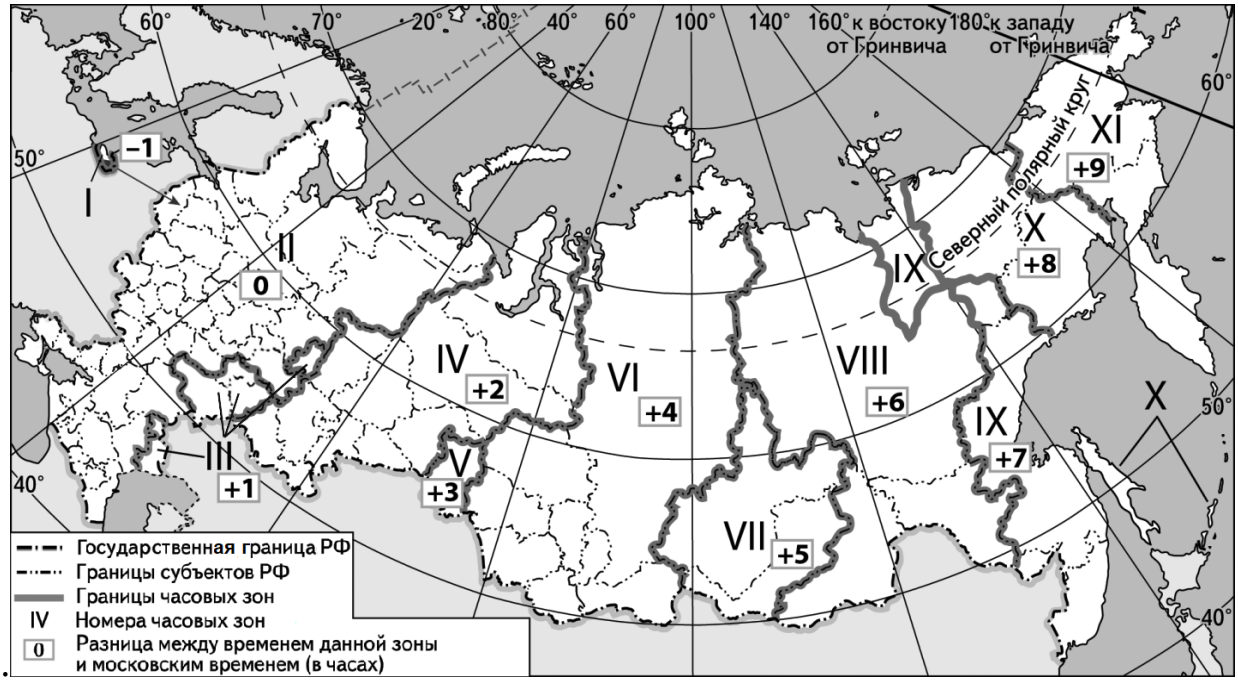

Ответ запишите в виде числа.

Ответ: _____ ч.

15 В 2025 г. в Китае было добыто 4,83 млрд т каменного угля. Определите величину разведанных в Китае запасов каменного угля в 2025 г. если известно, что показатель ресурсообеспеченности составлял 35 лет.
Ответ округлите до целого числа и запишите.

Ответ: _____ млрд т.

16 Используя данные диаграммы, определите значение показателя миграционного прироста населения Воронежской области в 2023 г. Ответ запишите в виде числа.

Распределение числа мигрантов по основным потокам передвижения в Воронежской области, 2023 г. (тыс. человек)

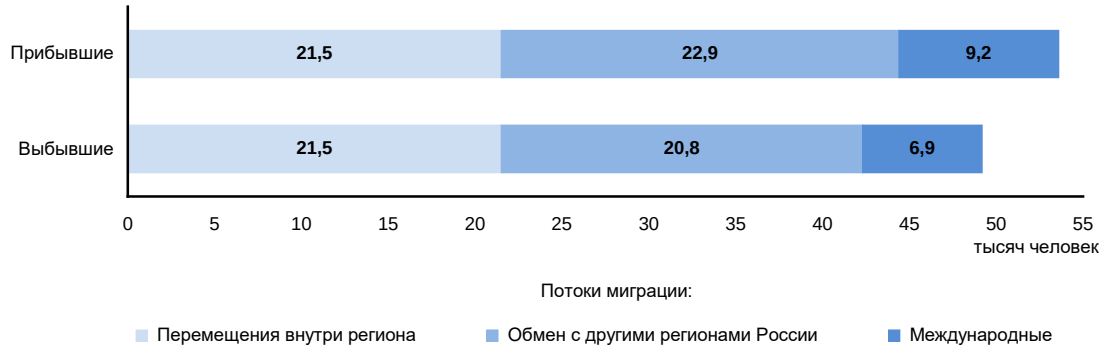

Ответ: _____ тыс. человек.

17 Определите страну по её краткому описанию.

Эта страна расположена в Европе. В северной части её территории летом бывает полярный день, а зимой – полярная ночь. По форме правления – конституционная монархия. Входит в число лидеров по ИЧР. Страна – крупный экспортёр нефти и природного газа, а также один из мировых лидеров по добыче и экспорту морепродуктов.

Ответ: _____.

18 Определите регион России по его краткому описанию

Эта область расположена в западном макрорегионе России. Расположена в природных зонах тайги, лесотундры и тундры. Средняя плотность населения низкая. Развиты цветная металлургия и рыболовство, работает атомная электростанция. Здесь находится важный незамерзающий морской порт. Туристов из России и зарубежных стран привлекает возможность наблюдать северное сияние в условиях полярной ночи.

Ответ: _____ область.

Задания 19 и 20 выполняются с использованием статистических приложений, выдаваемых с тренировочной работой, и приведённой ниже карты.

Латинская Америка. Доля городского населения (2023 г.)



19 Расположите перечисленные страны в порядке возрастания в них доли городского населения в общей численности населения, начиная со страны с наименьшим значением этого показателя.

1) Бразилия
2) Панама
3) Уругвай

Запишите в таблицу получившуюся последовательность цифр.

Ответ: | | | |

20 Петру необходимо составить карту «Африка. Доля городского населения», используя такую же интервальную шкалу, как на приведённой выше карте. Установите соответствие между страной и условным обозначением, которое необходимо использовать для показа доли городского населения каждой из перечисленных стран на карте: к каждой позиции, данной в первом столбце, подберите соответствующую позицию из второго столбца.

СТРАНА	УСЛОВНОЕ ОБОЗНАЧЕНИЕ
А) Ангола	1) 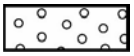 менее 40 %
Б) Малави	2)  40–55 %
В) Тунис	3) 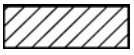 56–70 %
	4)  71–85 %
	5)  более 85 %

Запишите в таблицу выбранные цифры под соответствующими буквами.

Ответ:

А	Б	В

Задания 21–23 выполняются с использованием приведённого ниже текста. Ответ на задание 21 запишите в поле ответа в тексте работы. Для записи ответов на задания 22 и 23 используйте чистый лист. Запишите сначала номер задания (22 или 23), а затем развёрнутый ответ на него. Ответы записывайте чётко и разборчиво.

В Приморье будет новая АЭС

В Приморском крае уже не первый год наблюдается энергодефицит: установленная мощность электростанций ниже фактического потребления. Сейчас часть потребностей покрывается за счёт поставок электроэнергии из соседних регионов, а также за счёт угольной генерации. Развитие края, создание на его территории новых энергоёмких производств увеличивают нагрузку, и по прогнозам, к 2030 году потребность в электроэнергии ещё более возрастёт. Модернизация действующих ТЭЦ и ГРЭС, а также сооружение новых солнечных и ветровых электростанций дадут определённый эффект, но не смогут решить проблему полностью. Поэтому для покрытия дефицита электроэнергии было принято решение о строительстве в крае новой АЭС. Станция расположится в Уссурийском городском округе, вблизи села Красный Яр и реки Раздольной. Её суммарная установленная мощность составит 2 ГВт.

21 Назовите федеральный округ, в котором находится Приморский край.

Ответ: _____.

22 Приведите пример энергоёмкого производства (отрасли).

23 Объясните преимущества АЭС перед ветровыми и солнечными электростанциями.

Для записи ответов на задания 24–29 используйте чистый лист. Запишите сначала номер задания (24, 25 и т. д.), а затем развёрнутый ответ на него. Ответы записывайте чётко и разборчиво.

24 На основе анализа данных статистических приложений, выдаваемых с тренировочной работой, предположите, какая из стран – Аргентина или Бурунди – находилась в 2023 г. выше в рейтинге ООН по индексу человеческого развития (ИЧР). Для обоснования Вашего ответа запишите необходимые числовые данные из таблицы и вычисления, на основании которых Вы сделали своё предположение.

25 Используя данные статистических приложений, выдаваемых с тренировочной работой, сравните доли сельского хозяйства в ВВП и доли сельского хозяйства в общих объёмах экспорта Кении и Боливии. Сделайте вывод о том, в какой из этих стран сельское хозяйство играло бóльшую роль в экономике в 2023 г. Для обоснования Вашего ответа запишите необходимые числовые данные и вычисления.

26 Используя данные статистических приложений, объясните, почему доля лиц старше 65 лет в возрастной структуре населения в Мали меньше, чем в Бразилии. Укажите две причины.

27 Определите, в каком из пунктов, географические координаты которых указаны в таблице, 29 июля Солнце раньше (по времени Гринвичского меридиана) поднимется над горизонтом. Запишите обоснование Вашего ответа.

Пункт	Географические координаты	
	Широта	Долгота
А	23° ю.ш.	80° з.д.
Б	66° ю.ш.	80° з.д.
В	23° ю.ш.	90° з.д.

28 Какое расстояние (в км) пролетит вертолёт, вылетевший с корабля, находящегося в точке с координатами 48° 53′ ю.ш. 117° 53′ в.д., до порта Албани в Австралии (45° 53′ ю.ш. 117° 53′ в.д.), если известно, что он будет лететь строго по меридиану? Ответ округлите до целого числа. Запишите решение задачи.

29 При подготовке к олимпиаде школьников по географии Ольга получила задание проанализировать климатограмму и определить, в какой из нескольких названных учителем стран находится город, для которого составлена эта климатограмма. Ольга предположила, что этот город находится в Испании. Проанализируйте климатограмму и приведите два аргумента, подтверждающие её мнение.

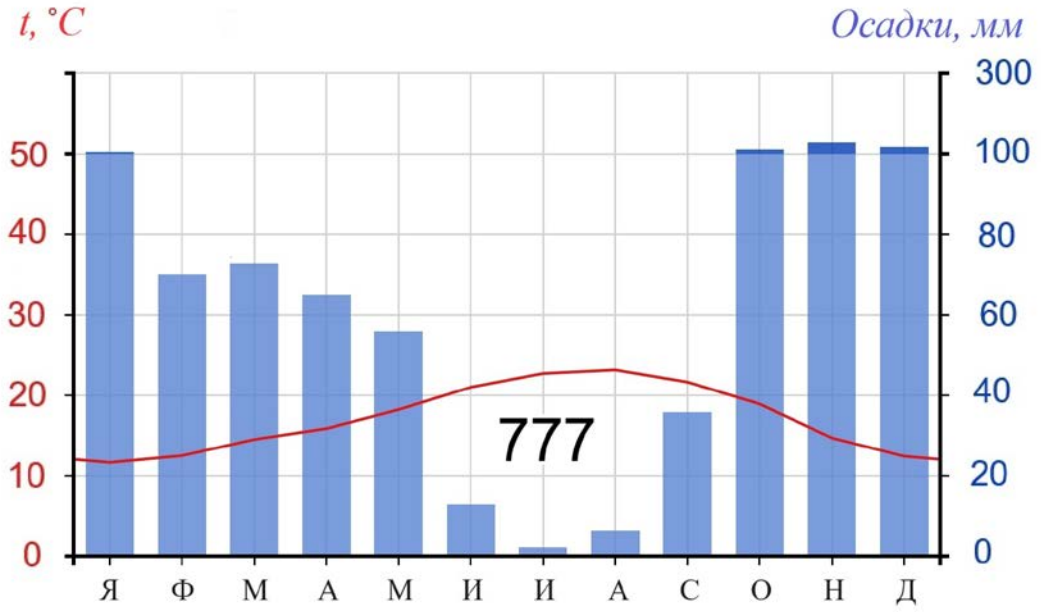

Справочные материалы

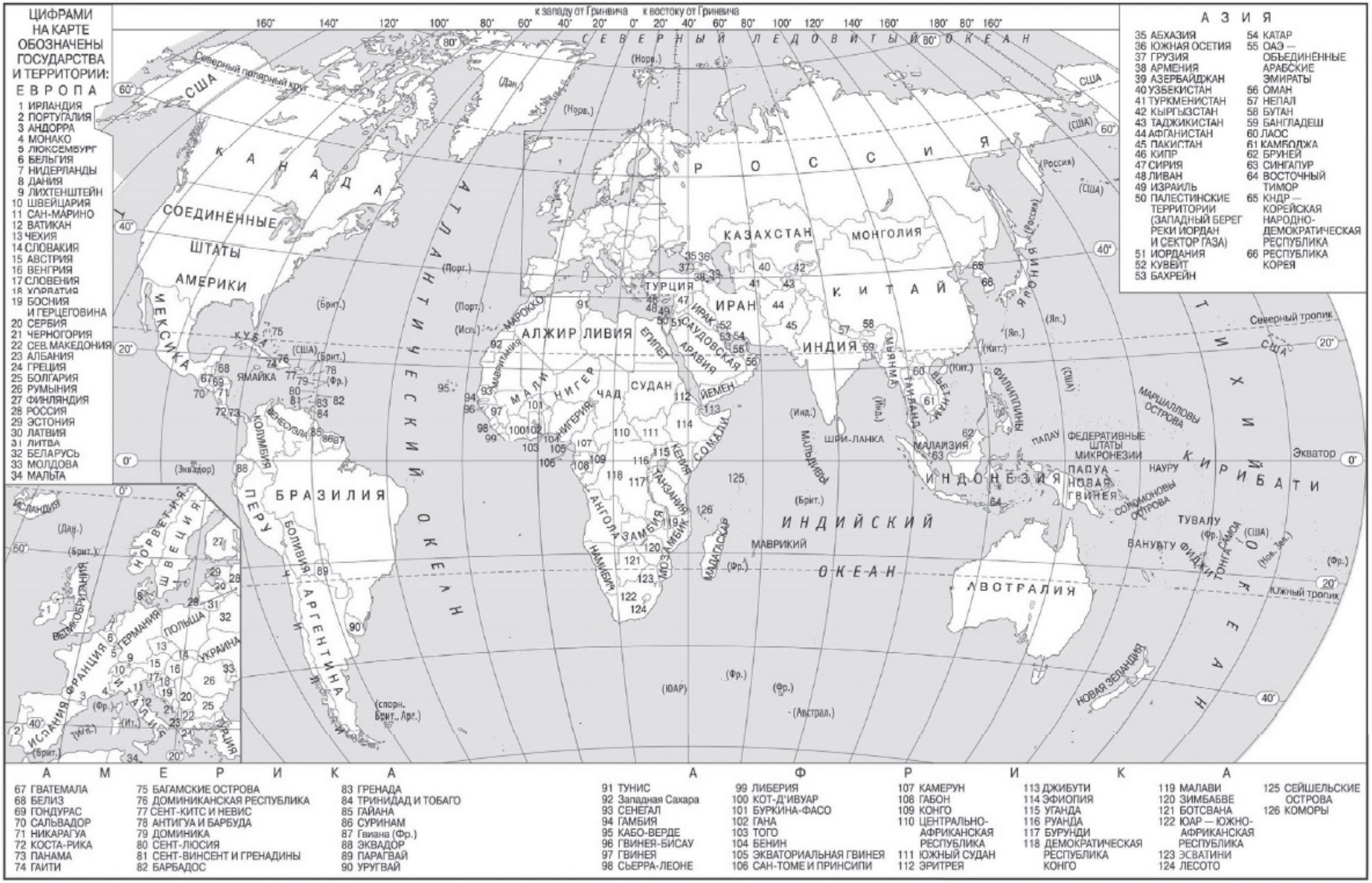

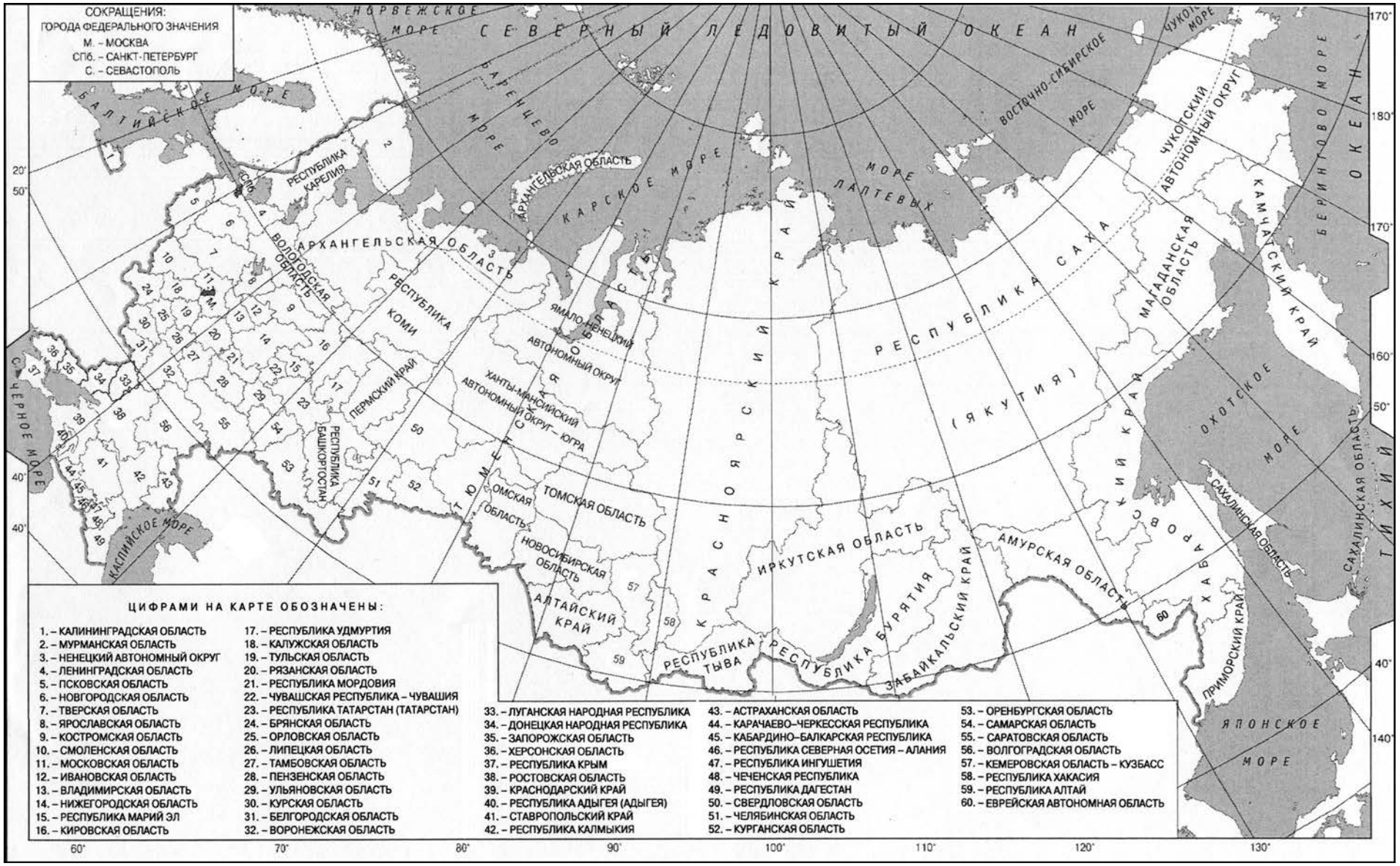
СОКРАЩЕНИЯ:
ГОРОДА ФЕДЕРАЛЬНОГО ЗНАЧЕНИЯ
М. – МОСКВА
СПб. – САНКТ-ПЕТЕРБУРГ
С. – СЕВАСТОПОЛЬ
ЦИФРАМИ НА КАРТЕ ОБОЗНАЧЕНЫ:
1. – КАЛИНИНГРАДСКАЯ ОБЛАСТЬ
2. – МУРМАНСКАЯ ОБЛАСТЬ
3. – НЕНЕЦКИЙ АВТОНОМНЫЙ ОКРУГ
4. – ЛЕНИНГРАДСКАЯ ОБЛАСТЬ
5. – ПСКОВСКАЯ ОБЛАСТЬ
6. – НОВГОРОДСКАЯ ОБЛАСТЬ
7. – ТВЕРСКАЯ ОБЛАСТЬ
8. – ЯРОСЛАВСКАЯ ОБЛАСТЬ
9. – КОСТРОМСКАЯ ОБЛАСТЬ
10. – СМОЛЕНСКАЯ ОБЛАСТЬ
11. – МОСКОВСКАЯ ОБЛАСТЬ
12. – ИВАНОВСКАЯ ОБЛАСТЬ
13. – ВЛАДИМИРСКАЯ ОБЛАСТЬ
14. – НИЖЕГОРОДСКАЯ ОБЛАСТЬ
15. – РЕСПУБЛИКА МАРИЙ ЭЛ
16. – КИРОВСКАЯ ОБЛАСТЬ
17. – РЕСПУБЛИКА УДМУРТИЯ
18. – КАЛУЖСКАЯ ОБЛАСТЬ
19. – ТУЛЬСКАЯ ОБЛАСТЬ
20. – РЯЗАНСКАЯ ОБЛАСТЬ
21. – РЕСПУБЛИКА МОРДОВИЯ
22. – ЧУВАШСКАЯ РЕСПУБЛИКА – ЧУВАШИЯ
23. – РЕСПУБЛИКА ТАТАРСТАН (ТАТАРСТАН)
24. – БРЯНСКАЯ ОБЛАСТЬ
25. – ОРЛОВСКАЯ ОБЛАСТЬ
26. – ЛИПЕЦКАЯ ОБЛАСТЬ
27. – ТАМБОВСКАЯ ОБЛАСТЬ
28. – ПЕНЗЕНСКАЯ ОБЛАСТЬ
29. – УЛЬЯНОВСКАЯ ОБЛАСТЬ
30. – КУРСКАЯ ОБЛАСТЬ
31. – БЕЛГОРОДСКАЯ ОБЛАСТЬ
32. – ВОРОНЕЖСКАЯ ОБЛАСТЬ
33. – ЛУГАНСКАЯ НАРОДНАЯ РЕСПУБЛИКА
34. – ДОНЕЦКАЯ НАРОДНАЯ РЕСПУБЛИКА
35. – ЗАПОРОЖСКАЯ ОБЛАСТЬ
36. – ХЕРСОНСКАЯ ОБЛАСТЬ
37. – РЕСПУБЛИКА КРЫМ
38. – РОСТОВСКАЯ ОБЛАСТЬ
39. – КРАСНОДАРСКИЙ КРАЙ
40. – РЕСПУБЛИКА АДЫГЕЯ (АДЫГЕЯ)
41. – СТАВРОПОЛЬСКИЙ КРАЙ
42. – РЕСПУБЛИКА КАЛМЫКИЯ
43. – АСТРАХАНСКАЯ ОБЛАСТЬ
44. – КАРАЧАЕВО-ЧЕРКЕССКАЯ РЕСПУБЛИКА
45. – КАБАРДИНО-БАЛКАРСКАЯ РЕСПУБЛИКА
46. – РЕСПУБЛИКА СЕВЕРНАЯ ОСЕТИЯ – АЛАНИЯ
47. – РЕСПУБЛИКА ИНГУШЕТИЯ
48. – ЧЕЧЕНСКАЯ РЕСПУБЛИКА
49. – РЕСПУБЛИКА ДАГЕСТАН
50. – СВЕРДЛОВСКАЯ ОБЛАСТЬ
51. – ЧЕЛЯБИНСКАЯ ОБЛАСТЬ
52. – КУРГАНСКАЯ ОБЛАСТЬ
53. – ОРЕНБУРГСКАЯ ОБЛАСТЬ
54. – САМАРСКАЯ ОБЛАСТЬ
55. – САРАТОВСКАЯ ОБЛАСТЬ
56. – ВОЛГОГРАДСКАЯ ОБЛАСТЬ
57. – КЕМЕРОВСКАЯ ОБЛАСТЬ – КУЗБАСС
58. – РЕСПУБЛИКА ХАКАСИЯ
59. – РЕСПУБЛИКА АЛТАЙ
60. – ЕВРЕЙСКАЯ АВТОНОМНАЯ ОБЛАСТЬ
СЕВЕРНЫЙ ЛЕДОВИТЫЙ ОКЕАН
ТИХИЙ ОКЕАН
НОРВЕЖСКОЕ МОРЕ
БАРЕНЦЕВО МОРЕ
БАЛТИЙСКОЕ МОРЕ
КАРСКОЕ МОРЕ
МОРЕ ЛАПТЕВЫХ
ВОСТОЧНО-СИБИРСКОЕ МОРЕ
ЧУКОТСКОЕ МОРЕ
БЕРИНГОВО МОРЕ
ОХОТСКОЕ МОРЕ
ЯПОНСКОЕ МОРЕ
КАСПИЙСКОЕ МОРЕ
ЧЕРНОЕ МОРЕ
РЕСПУБЛИКА КАРЕЛИЯ
АРХАНГЕЛЬСКАЯ ОБЛАСТЬ
ВОЛОГОДСКАЯ ОБЛАСТЬ
РЕСПУБЛИКА КОМИ
ПЕРМСКИЙ КРАЙ
РЕСПУБЛИКА БАШКОРТОСТАН
ЯМАЛО-НЕНЕЦКИЙ АВТОНОМНЫЙ ОКРУГ
ХАНТЫ-МАНСИЙСКИЙ АВТОНОМНЫЙ ОКРУГ – ЮГРА
ТЮМЕНСКАЯ ОБЛАСТЬ
ОМСКАЯ ОБЛАСТЬ
ТОМСКАЯ ОБЛАСТЬ
НОВОСИБИРСКАЯ ОБЛАСТЬ
АЛТАЙСКИЙ КРАЙ
КРАСНОЯРСКИЙ КРАЙ
РЕСПУБЛИКА ТЫВА
ИРКУТСКАЯ ОБЛАСТЬ
РЕСПУБЛИКА БУРЯТИЯ
ЗАБАЙКАЛЬСКИЙ КРАЙ
РЕСПУБЛИКА САХА (ЯКУТИЯ)
ЧУКОТСКИЙ АВТОНОМНЫЙ ОКРУГ
МАГАДАНСКАЯ ОБЛАСТЬ
КАМЧАТСКИЙ КРАЙ
САХАЛИНСКАЯ ОБЛАСТЬ
ХАБАРОВСКИЙ КРАЙ
АМУРСКАЯ ОБЛАСТЬ
ПРИМОРСКИЙ КРАЙ
60°
70°
80°
90°
100°
110°
120°
130°
20°
50°
40°
170°
180°
170°
160°
50°
40°
140°

Таблица 1. Основные демографические показатели некоторых стран Центральной и Южной Америки и Африки в 2023 г.

Страна	Численность населения, млн человек	Рождаемость, ‰	Смертность, ‰	Доля городского населения, %	Ожидаемая продолжительность жизни населения, лет	Доля лиц в возрасте младше 15 лет, %	Доля лиц в возрасте старше 65 лет, %
Аргентина	46,3	14	9	92	76	24	12
Бразилия	204,0	12	8	88	73	20	10
Венесуэла	28,8	16	8	88	72	29	7
Гайана	0,8	19	10	27	66	28	6
Гвиана (Фр.)	0,3	27	5	87	76	32	6
Колумбия	52,2	14	7	82	74	21	9
Перу	33,8	17	8	79	73	26	9
Уругвай	3,6	10	9	96	78	20	15
Чили	20,0	9	7	88	81	19	13
Ангола	36,7	38	8	69	62	45	3
Бурунди	13,2	34	7	15	62	46	2
Египет	105,2	21	6	43	72	34	4
Кения	55,1	28	8	30	62	37	3
Ливия	6,9	17	6	82	72	28	5
Мали	23,3	41	9	46	59	47	2
Малави	19,8	32	7	18	67	42	4
Нигер	27,2	45	8	17	62	49	2
Судан	48,1	33	7	36	66	41	3
Танзания	67,4	34	6	37	66	43	4
Тунис	11,9	14	11	71	76	25	10
Уганда	48,6	36	6	27	64	44	2
Чад	19,3	43	12	24	53	47	2
Эфиопия	126,5	32	6	23	66	39	3

Таблица 2. Показатели социально-экономического развития некоторых стран Центральной и Южной Америки и Африки в 2017 г.

Страна	Объём ВВП, млрд долл.	Структура ВВП, %			Структура занятости рабочей силы, %			Объём экспорта, млрд долл.	Объём сельскохозяйственного экспорта, млрд долл.
		Сфера услуг	Промышленность	Сельское хозяйство	Сфера услуг	Промышленность	Сельское хозяйство		
Аргентина	640,6	52,8	41,1	6,1	73	19	8	66,8	35,7
Боливия	45,8	51,3	36,2	12,5	52	19	29	10,9	2,7
Бразилия	2173,7	58,9	34,9	6,2	71	19	10	339,7	157,1
Венесуэла	482,4	51,7	43,3	5,0	71	16	13	7,8	0,05
Колумбия	363,5	56,9	34,4	8,7	65	19	16	49,6	10,0
Парагвай	43,0	49,0	39,7	11,3	64	16	20	11,9	8,6
Перу	267,6	49,6	43,3	7,1	57	15	28	64,7	13,3
Суринам	3,4	48,3	44,2	7,5	66	27	7	2,3	0,2
Уругвай	77,2	66,3	28,1	5,6	74	18	8	9,2	7,4
Чили	335,5	56,9	39,6	3,5	71	22	7	94,6	25,7
Эквадор	118,8	59,7	32,6	7,7	51	17	32	31,1	17,0
Ангола	112,2	39,7	45,4	14,9	38	3	59	39,5	0,2
Бурунди	26	49,0	25,7	25,3	12	3	85	0,2	0,1
Египет	395,9	51,6	37,8	10,6	53	27	20	42,1	8,9
Кения	108,0	55,4	22,8	21,8	52	16	32	7,2	4,0
Ливия	50,5	46,6	51,8	1,6	68	16	16	33,1	0,8
Мали	20,9	36,1	27,1	36,8	22	10	68	5,7	0,5
Намибия	12,4	53,8	30,2	7,7	62	17	21	5,5	0,3
Сенегал	30,7	49,6	33,0	17,4	56	22	22	5,3	0,8
Танзания	79,1	28,7	47,6	23,7	26	9	65	7,3	2,6
Тунис	48,5	62,1	28,4	9,5	53	33	14	20,0	2,6
Чад	13,1	28,7	46,2	25,1	21	10	69	4,6	0,2
Эфиопия	163,7	37,0	27,2	35,8	31	5	64	4,0	3,2