ОБЖ
ВСЕРОССИЙСКАЯ
ОЛИМПИАДА
ШКОЛЬНИКОВ

Задания
теоретического тура
муниципального этапа
2026/27 учебный год
11 класс

Уважаемый участник олимпиады!

Вам предстоит выполнить теоретические (письменные) и тестовые задания.

Время выполнения заданий теоретического тура 90 минут.

Выполнение теоретических (письменных) заданий целесообразно организовать следующим образом:

– не спеша, внимательно прочитайте задание и определите, наиболее верный и полный ответ;

– отвечая на теоретический вопрос, обдумайте и сформулируйте конкретный ответ только на поставленный вопрос;

– если Вы отвечаете на задание, связанное с заполнением таблицы или схемы, не старайтесь детализировать информацию, вписывайте только те сведения или данные, которые указаны в вопросе;

– особое внимание обратите на задания, в выполнении которых требуется выразить Ваше мнение с учетом анализа ситуации или поставленной проблемы. Внимательно и вдумчиво определите смысл вопроса и логику ответа (последовательность и точность изложения). Отвечая на вопрос, предлагайте свой вариант решения проблемы, при этом ответ должен быть кратким, но содержать необходимую информацию;

– после выполнения всех предложенных заданий еще раз удостоверьтесь в правильности выбранных Вами ответов и решений.

Выполнение тестовых заданий целесообразно организовать следующим образом:

– не спеша, внимательно прочитайте тестовое задание;

– определите, какой из предложенных вариантов ответа наиболее верный и полный;

– напишите букву, соответствующую выбранному Вами ответу;

– продолжайте, таким образом, работу до завершения выполнения тестовых заданий;

– после выполнения всех предложенных заданий еще раз удостоверьтесь в правильности ваших ответов;

– если потребуется корректировка выбранного Вами варианта ответа, то неправильный вариант ответа зачеркните крестиком, и рядом напишите новый.

Предупреждаем Вас, что:

– при оценке тестовых заданий, где необходимо определить один правильный ответ, **0** баллов выставляется за неверный ответ и в случае, если участником отмечены несколько ответов (в том числе правильный), или все ответы;

– при оценке тестовых заданий, где необходимо определить все правильные ответы, **0** баллов выставляется, если участником отмечены неверные ответы, большее количество ответов, чем предусмотрено в задании (в том числе правильные ответы) или все ответы.

Задание теоретического тура считается выполненным, если Вы вовремя сдаете его членам жюри. **Максимальная оценка – 150 баллов.**

Желаем вам успеха!

Модуль 1. Теоретические задания.

Задание 1. На схеме изображены основные артерии человека. Запишите их названия.

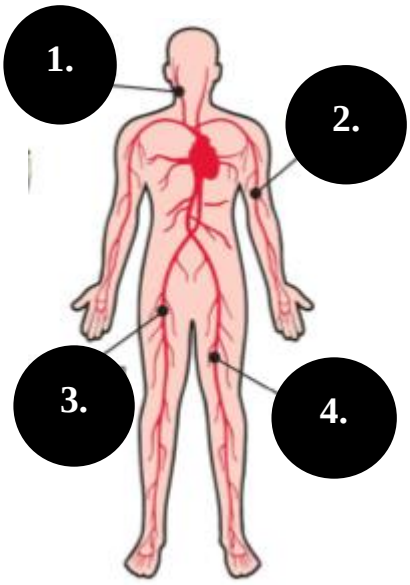

Ответ:

№	Основные артерии человека
1.	
2.	
3.	
4.	

Оценка задания: Максимальная оценка за правильно выполненное задание **– 16 балла,** при этом:

- за каждый правильный ответ начисляется по 4 *балла*.
- при отсутствии правильных ответов баллы не начисляются.

Задание 2. В АК-12 положение переводчика соответствует выбору режима стрельбы. Установите соответствие между положением переводчика и режимом стрельбы.

№	Положение переводчика		Режим стрельбы
1.	«Нижнее положение переводчика»	**А**	Очередью в два выстрела
2.	«Выше»	**Б**	Автоматическая стрельба
3.	«Еще выше»	**В**	Установка оружия на предохранитель
4.	«Верхнее положение переводчика»	**Г**	Одиночная стрельба

Ответ:

1.	2.	3.	4.

Оценка задания: Максимальная оценка за правильно выполненное задание **– 16 баллов,** при этом:

- за каждый правильный ответ начисляется по 4 *балла.*
- если дано более 10 ответов – *0 баллов.*
- при отсутствии правильных ответов баллы не начисляются.

Задание 3. В таблице перечислены рекомендуемые предметы для индивидуального и группового аварийно-спасательного комплекта для людей, находящихся в Арктической зоне РФ. Отметьте знаком «+», что относится к индивидуальному и групповому перечню. Всего 10 ответов.

Ответ:

Индивидуальный перечень	Перечень аварийно-спасательного комплекта	Групповой перечень
	Фальшфейер цветного огня (красный, синий, др.)	
	Ракетница (например, СПШ-44) с комплектом снарядов	
	Огнетушитель (такой, как ОУ-2)	
	Сигнальная ракета (такая, как РС-30)	
	Ручная дымовая граната (в частности, РДГ-2 и РДГ-2ч)	
	Сигнальный комплект (например, «Сигнал охотника»)	
	нож	

Оценка задания: Максимальная оценка за правильно выполненное задание **– 20 баллов,** при этом:

- за каждый правильный ответ начисляется по *2 балла.*
- если дано более 10 ответов – *0 баллов.*
- при отсутствии правильных ответов баллы не начисляются.

Задание 4. Беспилотные воздушные суда (БВС) классифицируются по высоте полета. По высоте полета БВС устанавливают следующую классификацию. Запишите их в метрах.

1. малые высоты:

А) не более _____ м;

Б) более _____, но не более _____ м;

2. средние высоты:

В) более ____, но не более ____ м;

3. большие высоты:

Г) более ____, но не более _____ м;

Д) более ____, но не более _____ м;

Е) более ____ м.

Ответ:

Малые высоты		Средние высоты	Большие высоты		
А	**Б**	**В**	**Г**	**Д**	**Е**

Оценка задания: Максимальная оценка за правильно выполненное задание **– 20 баллов,** при этом:

- за каждый правильный ответ начисляется по 2 *балла.*
- при отсутствии правильных ответов баллы не начисляются.

Задание 5. В правилах нанесения на карты прогнозируемой и сложившейся обстановки при ведении военных конфликтов и чрезвычайных ситуаций природного и техногенного характера изображены знаки. Напишите название знаков без расшифровки значений.

№	Знак	Значение
1.		
2.		
3.		
4.		
5.	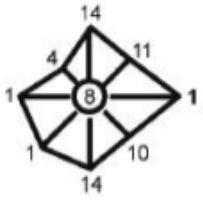	

Оценка задания: Максимальная оценка за правильно выполненное задание **– 20 баллов,** при этом:

- за каждый правильный ответ начисляется по 4 *балла*.
- при отсутствии правильных ответов баллы не начисляются.

Задание 6. Федеральный закон от 12.02.1998 № 28- ФЗ (ред. от 23.07.2025) «О гражданской обороне» определяет полномочия органов государственной власти РФ в области гражданской обороны. Отметьте знаком «+», какие из них входят в полномочия Президента РФ и какие в полномочия Правительства РФ (правильных ответов 9).

Президент РФ	Полномочия органов государственной власти РФ в области гражданской обороны	Правительство РФ
	Утверждает План гражданской обороны и защиты населения РФ	
	Обеспечивает проведение единой государственной политики в области гражданской обороны;	
	Определяет порядок подготовки населения в области гражданской обороны	
	Руководит организацией и ведением гражданской обороны	
	Определяет основные направления единой государственной политики в области ГО	
	Определяет порядок приведения в готовность ГО	
	Вводит в действия План ГО и защиты населения РФ на территории РФ или в отдельных ее местностях	
	Определяет порядок эвакуации населения, порядок подготовки к защите и защиты материальных и культурных ценностей	
	Издает нормативные и правовые акты в области ГО	

Оценка задания: Максимальная оценка за правильно выполненное задание **– 18 баллов,** при этом:

- за каждый правильный ответ начисляется по *2 балла.*
- если дано более 8 ответов знаком «+» общее количество за задание *0 баллов.*
- при отсутствии правильных ответов баллы не начисляются.

Максимальное количество баллов за теоретические задания – 110 баллов.
Тестовые задания

№	Тестовые задания	Макс балл
1	2	3
	Определите один правильный ответ	
1.	**Высшие должностные лица регионов вправе вводить в действие планы гражданской обороны и защиты населения — по предложению _____.** А. Президента РФ; Б. Председателя Правительства РФ; В. Председателя Совета Федерации; Г. Министра РФ по делам гражданской обороны, ЧС и ликвидации последствий стихийных бедствий.	2
2.	**Направление поступательного зигзагообразного движения дозора радиационной, химической, биологической разведки по площади зараженного района либо вдоль оси назначенного маршрута с отклонениями от этой оси на расстояния, определенные командиром дозора называется - _____.** А. лавировка; Б. фордевинд; В. галс; Г. оверштаг.	2
3.	**Туристический пешеходный маршрут VI категории по протяженности около 250 км и около __ дней.** А. 10; Б. 13; В. 16; Г. 20.	2
4.	 **На фотографии изображено редкое природное явление. Древние греки называли его огнями _____?** А. Одиссея и Ахилла; Б. Кастора и Поллукса; В. Тесея и Ясона; Г. Орфея и Эвридики.	2

5.	**Зараженный район - участок местности с приземным слоем атмосферы высотой до ___ м, в пределах которого произошло (могло произойти) заражение окружающей среды.** А. 10; Б. 20; В. 30; Г. 50.	2
6.	**Приказ МЧС России от 10.01.2024 № 5 скорректировал критерии информации о ЧС добавлен критерий для ДТП: событие с участием __ и более автотранспортных средств теперь может квалифицироваться как ЧС.** А. 2; Б. 3; В. 8; Г. 10.	2
7.	**Сильный туман - сильное помутнение воздуха за счет скопления мельчайших частиц воды (пыли, продуктов горения), с метеорологической дальностью видимости не более ___ м продолжительностью 12 часов и более.** А. 50; Б. 100; В. 150; Г. 200.	2
8.	**Критерием экономической безопасности является стабильный прирост производительности общественного труда не менее __%.** А. 2; Б. 3; В. 5; Г. 10	2
9.	**Законодательное закрепление термина "безопасность" как понятия "государственной безопасности", использовавшейся в качестве отслеживания различных ситуаций в жизни общества, произошло _____.** А. в 1917 году; Б. в 1921 году; В. в 1927 году; Г. в 1934 году.	2
10.	**Разносторонний процесс человеческих условий для своего существования и развития – это:** а) жизнедеятельность; б) деятельность; в) безопасность; г) жизнь.	2

11.	**Более половины всех жертв ДТП — так называемые уязвимые пользователи дорог, то есть пешеходы, велосипедисты, водители и пассажиры моторизованных двухколесных транспортных средств, в первую очередь _____.** А. пешеходов; Б. велосипедов; В. электросамокатов и скутеров; Г. мотоциклов.	2
12.	**При движении на местности по азимуту с ошибкой в 1º (в тысячных) боковое смещение на каждый километр пройденного пути составляет около ___ м.** А. 17; Б. 20; В. 23; Г. 26.	2
13.	**Пропитка или перепропитка (повторная пропитка) одежды защитными составами (составами, препятствующими проникание отравляющих веществ к телу человека) - это _____(определение).** А. Анаэробные герметики; Б. Эпоксидные компаунды; В. Углеволокление; Г. Импрегнирование.	2
14.	**Зараженный район - участок местности с приземным слоем атмосферы высотой до __ м, в пределах которого произошло (могло произойти) заражение окружающей среды.** А. 30; Б. 40; В. 50; Г. 60.	2
15.	 **На фотографии изображено мобильное убежище «Куб – М». В базовой комплектации два модуля: помещение для ____ человек и технический блок, но вместимость легко увеличить, добавив ещё секции.** А. 54; Б. 68; В. 85; Г. 100.	2

16.	 **На фотографии изображен противогаз. Как он называется?** А. ГП - 7; Б. ГП - 9; В. ГП – 21У; Г. МЗС ВК ЭКРАН.	2
17.	**Уклонение от призыва квалифицируется как преступление, по статье 328 УК РФ предусмотрено наказание в виде лишения свободы на срок до 2 лет или арест до ___ месяцев.** А. 3; Б. 4; В. 5; Г. 6.	2
18.	**По защищенности от внешнего радиоактивного излучения ПРУ классифицируют:** **располагаемые в 50-километровой зоне вокруг АЭС со степенью ослабления, равной ___.** А. 100; Б. 200; В. 300; Г. 500.	2
	Определите два правильных ответа	
19.	Боевой стресс. Помощь при острых реакциях. Дрожь. А. спокойно поговорить; Б. потрясти за плечи; В. дать попить воды; Г. обеспечить безопасность.	4
		Итого 40

Ответ:

1.	2.	3.	4.	5.	6.	7.	8.	9.	10.
11.	**12.**	**13.**	**14.**	**15.**	**16.**	**17.**	**18.**	**19.**	

Максимальное количество баллов за тестовые задания – 40 баллов.
Общее количество баллов за теоретические и тестовые задания – 150 баллов.

ОБЖ
ВСЕРОССИЙСКАЯ ОЛИМПИАДА ШКОЛЬНИКОВ

Муниципальный этап
критерии и методика оценивания
теоретического тура
11 класс
2026/27 учебный год

Модуль 1. Теоретические задания.

Задание 1. На схеме изображены основные артерии человека. Запишите их названия.

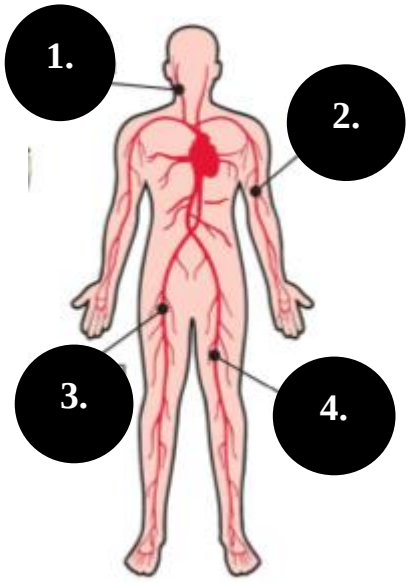

Ответ:

№	Основные артерии человека
1.	Сонная артерия
2.	Плечевая артерия
3.	Подвздошная артерия
4.	Бедренная артерия

Оценка задания: Максимальная оценка за правильно выполненное задание **– 16 балла,** при этом:

- за каждый правильный ответ начисляется по 4 *баллов.*
- при отсутствии правильных ответов баллы не начисляются.

Задание 2. В АК-12 положение переводчика соответствует выбору режима стрельбы. Установите соответствие между положением переводчика и режимом стрельбы.

№	Положение переводчика		Режим стрельбы
1.	«Нижнее положение переводчика»	**А**	Очередью в два выстрела
2.	«Выше»	**Б**	Автоматическая стрельба
3.	«Еще выше»	**В**	Установка оружия на предохранитель
4.	«Верхнее положение переводчика»	**Г**	Одиночная стрельба

Ответ:

1.	2.	3.	4.
Г	А	Б	В

Оценка задания: Максимальная оценка за правильно выполненное задание **– 16 баллов,** при этом:

- за каждый правильный ответ начисляется по 4 *балла.*
- если дано более 10 ответов – *0 баллов.*
- при отсутствии правильных ответов баллы не начисляются.

Задание 3. В таблице перечислены рекомендуемые предметы для индивидуального и группового аварийно-спасательного комплекта для людей, находящихся в Арктической зоне РФ. Отметьте знаком «+», что относится к индивидуальному и групповому перечню. Всего 10 ответов.

Ответ:

Индивидуальный перечень	Перечень аварийно-спасательного комплекта	Групповой перечень
+	Фальшфейер цветного огня (красный, синий, др.)	+
	Ракетница (например, СПШ-44) с комплектом снарядов	+
	Огнетушитель (такой, как ОУ-2)	+
+	Сигнальная ракета (такая, как РС-30)	+
	Ручная дымовая граната (в частности, РДГ-2 и РДГ-2ч)	+
+	Сигнальный комплект (например, «Сигнал охотника»)	
+	нож	+

Оценка задания: Максимальная оценка за правильно выполненное задание **– 20 баллов,** при этом:

- за каждый правильный ответ начисляется по *2 балла.*
- если дано более 10 ответов – *0 баллов.*
- при отсутствии правильных ответов баллы не начисляются.

Задание 4. Беспилотные воздушные суда (БВС) классифицируются по высоте полета. По высоте полета БВС устанавливают следующую классификацию. Запишите в метрах.

1. малые высоты:

А) не более __ м;

Б) более __, но не более ___ м;

2. средние высоты:

В) более ____, но не более ____ м;

3. большие высоты:

Г) более ____, но не более _____ м;

Д) более ____, но не более _____ м;

Е) более ____ м.

Ответ:

Малые высоты		Средние высоты	Большие высоты		
А	**Б**	**В**	**Г**	**Д**	**Е**
10	10-150	150- 1000	1000-5000	5000-10 000	10 000

Оценка задания: Максимальная оценка за правильно выполненное задание **– 20 баллов,** при этом:

- за каждый правильный ответ начисляется по 2 *балла.*
- при отсутствии правильных ответов баллы не начисляются.

Задание 5. В правилах нанесения на карты прогнозируемой и сложившейся обстановки при ведении военных конфликтов и чрезвычайных ситуаций природного и техногенного характера изображены знаки. Напишите название знаков без расшифровки значений.

№	Знак	Значение
1.		**Цунами,** дата (число, месяц, год) прохождения.
2.		**Лавины,** дата (число, месяц, год) прохождения.
3.		**Сели**, дата (число, месяц, год) прохождения
4.		**Ураганы,** дата (число, месяц, год) прохождения
5.	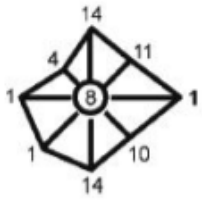	**Розы ветров**. Цифра внутри знака (8) обозначает количество безветренных дней, %. Цифры по внешнему контуру знака обозначают количество дней с указанием направления ветра, %.

Оценка задания: Максимальная оценка за правильно выполненное задание **– 20 баллов,** при этом:

- за каждый правильный ответ начисляется по 4 *балла*.
- при отсутствии правильных ответов баллы не начисляются.

Задание 6. Федеральный закон от 12.02.1998 № 28- ФЗ (ред. от 23.07.2025) «О гражданской обороне» определяет полномочия органов государственной власти РФ в области гражданской обороны. Отметьте знаком «+», какие из них входят в полномочия Президента РФ и какие в полномочия Правительства РФ (правильных ответов 9).

Президент РФ	Полномочия органов государственной власти РФ в области гражданской обороны	Правительство РФ
+	Утверждает План гражданской обороны и защиты населения РФ	
	Обеспечивает проведение единой государственной политики в области гражданской обороны;	+
	Определяет порядок подготовки населения в области гражданской обороны	+
	Руководит организацией и ведением гражданской обороны	+
+	Определяет основные направления единой государственной политики в области ГО	
	Определяет порядок приведения в готовность ГО	+
+	Вводит в действия План ГО и защиты населения РФ на территории РФ или в отдельных ее местностях	
	Определяет порядок эвакуации населения, порядок подготовки к защите и защиты материальных и культурных ценностей	+
	Издает нормативные и правовые акты в области ГО	+

Оценка задания: Максимальная оценка за правильно выполненное задание **– 18 баллов,** при этом:

- за каждый правильный ответ начисляется по *2 балла.*
- если дано более 8 ответов знаком «+» общее количество за задание *0 баллов.*
- при отсутствии правильных ответов баллы не начисляются.

Максимальное количество баллов за теоретические задания – 110 баллов.

Тестовые задания

№	Тестовые задания	Макс балл
1	2	3
	Определите один правильный ответ	
1.	**Высшие должностные лица регионов вправе вводить в действие планы гражданской обороны и защиты населения — по предложению _____.** А. Президента РФ; Б. Председателя Правительства РФ; В. Председателя Совета Федерации; **Г. Министра РФ по делам гражданской обороны, ЧС и ликвидации последствий стихийных бедствий.**	2
2.	**Направление поступательного зигзагообразного движения дозора радиационной, химической, биологической разведки по площади зараженного района либо вдоль оси назначенного маршрута с**	2

	отклонениями от этой оси на расстояния, определенные командиром дозора называется - _____ А. лавировка; Б. фордевинд; **В. галс;** Г. оверштаг.	
3.	**Туристический пешеходный маршрут VI категории по протяженности около 250 км и около __ дней.** А. 10; Б. 13; В. 16; **Г. 20.**	2
4.	 **На фотографии изображено редкое природное явление. Древние греки называли его огнями _____?** А. Одиссея и Ахилла; **Б. Кастора и Поллукса;** В. Тесея и Ясона; Г. Орфея и Эвридики.	2
5.	**Зараженный район - участок местности с приземным слоем атмосферы высотой до ___ м, в пределах которого произошло (могло произойти) заражение окружающей среды.** А. 10; Б. 20; В. 30; **Г. 50.**	2
6.	**Приказ МЧС России от 10.01.2024 № 5 скорректировал критери информации о ЧС добавлен критерий для ДТП: событие участием __ и более автотранспортных средств теперь може квалифицироваться как ЧС.** А. 2; Б. 3; В. 8; **Г. 10.**	2
7.	**Сильный туман - сильное помутнение воздуха за счет скопления мельчайших частиц воды (пыли, продуктов горения), с метеорологической дальностью видимости не более ___ м продолжительностью 12 часов и более.** **А. 50;** Б. 100; В. 150; Г. 200.	2
8.	**Критерием экономической безопасности является стабильный прирост производительности общественного труда не менее __%.** А. 2; Б. 3; **В. 5;** Г. 10	2
9.	**Законодательное закрепление термина "безопасность" как понятия "государственной безопасности", использовавшейся в качестве отслеживания различных ситуаций в жизни общества, произошло**	2

	_____. А. в 1917 году; Б. в 1921 году; В. в 1927 году; **Г. в 1934 году.**	
10.	**Разносторонний процесс человеческих условий для своего существования и развития – это:** а) жизнедеятельность; **б) деятельность;** в) безопасность; г) жизнь.	
11.	**Более половины всех жертв ДТП — так называемые уязвимые пользователи дорог, то есть пешеходы, велосипедисты, водители и пассажиры моторизованных двухколесных транспортных средств, в первую очередь _____.** А. пешеходов; Б. велосипедов; В. электросамокатов и скутеров; **Г. мотоциклов.**	2
12.	**При движении на местности по азимуту с ошибкой в 1º (в тысячных) боковое смещение на каждый километр пройденного пути составляет около ___ м.** **А. 17;** Б. 20; В. 23; Г. 26.	2
13.	**Пропитка или перепропитка (повторная пропитка) одежды защитными составами (составами, препятствующими прониканию отравляющих веществ к телу человека) - это _____(определение).** А. Анаэробные герметики; Б. Эпоксидные компаунды; В. Углеволокление; Г. **Импрегнирование**.	2
14.	**Зараженный район - участок местности с приземным слоем атмосферы высотой до __ м, в пределах которого произошло (могло произойти) заражение окружающей среды.** А. 30; Б. 40; **В. 50;** Г. 60.	2
15.	 **На фотографии изображено мобильное убежище «Куб –М». В базовой комплектации два модуля: помещение для ____ человек и технический блок, но вместимость легко увеличить, добавив ещё секции.** **А. 54;** Б. 68; В. 85; Г. 100.	2

16.	 **На фотографии изображен противогаз. Как он называется?** А. ГП - 7; **Б. ГП - 9;** В. ГП – 21У; Г. МЗС ВК ЭКРАН.	2
17.	**Уклонение от призыва квалифицируется как преступление, по статье 328 УК РФ предусмотрено наказание в виде лишения свободы на срок до 2 лет или арест до ___ месяцев.** А. 3; Б. 4; В. 5; **Г. 6.**	2
18.	**По защищенности от внешнего радиоактивного излучения ПРУ классифицируют:** **располагаемые в 50-километровой зоне вокруг АЭС со степенью ослабления, равной ___.** **А. 100;** Б. 200; В. 300; Г. 500.	2
Определите два правильных ответа		
19.	**Боевой стресс. Помощь при острых реакциях. Дрожь.** А. спокойно поговорить; **Б. потрясти за плечи;** **В. дать попить воды;** Г. обеспечить безопасность.	4
Итого:		**40**

Ответ:

1	2	3	4	5	6	7	8	9	10	11	12	13
Г	В	Г	Б	Г	Г	А	В	Г	Б	Г	А	Г
14	**15**	**16**	**17**	**18**	**19**							
В	**А**	**Б**	**Г**	**А**	**Б,В**							

Максимальное количество баллов за тестовые задания – 40 баллов.

Общее количество баллов за теоретические и тестовые задания – 150 баллов.