КОД

Проверочная работа

по ГЕОГРАФИИ

6 класс

Вариант 2

Инструкция по выполнению заданий части 1 проверочной работы

На выполнение заданий части 1 проверочной работы по географии отводится один урок (не более 45 минут). Часть 1 включает в себя 9 заданий.

Ответы на задания запишите в поля ответов в тексте работы или в специально отведённом для ответа месте, указанном в задании. В случае записи неверного ответа зачеркните его и запишите рядом новый.

При выполнении заданий части 1 проверочной работы не разрешается пользоваться учебниками, рабочими тетрадями, справочным материалом. При выполнении всех заданий работы можно использовать карты атласа 6 класса. При вычислениях разрешается использовать непрограммируемый калькулятор. Для выполнения задания 2 потребуется карандаш.

При необходимости можно пользоваться черновиком. Записи в черновике проверяться и оцениваться не будут.

Советуем выполнять задания в том порядке, в котором они даны. В целях экономии времени пропускайте задание, которое не удаётся выполнить сразу, и переходите к следующему. Если после выполнения работы у Вас останется время, то Вы сможете вернуться к пропущенным заданиям.

Желаем успеха!

*Таблица для внесения баллов участника**

Номер задания	1	2	3	4	5	6	7	8	9	Сумма баллов (за Часть 1)
Баллы										

* *Обратите внимание*: в случае, если какие-либо задания не могли быть выполнены целым классом по причинам, связанным с особенностями организации учебного процесса, в форме сбора результатов ВПР всем обучающимся класса за данные задания вместо баллов выставляется значение «Тема не пройдена». В соответствующие ячейки таблицы заполняется н/п.

КОД

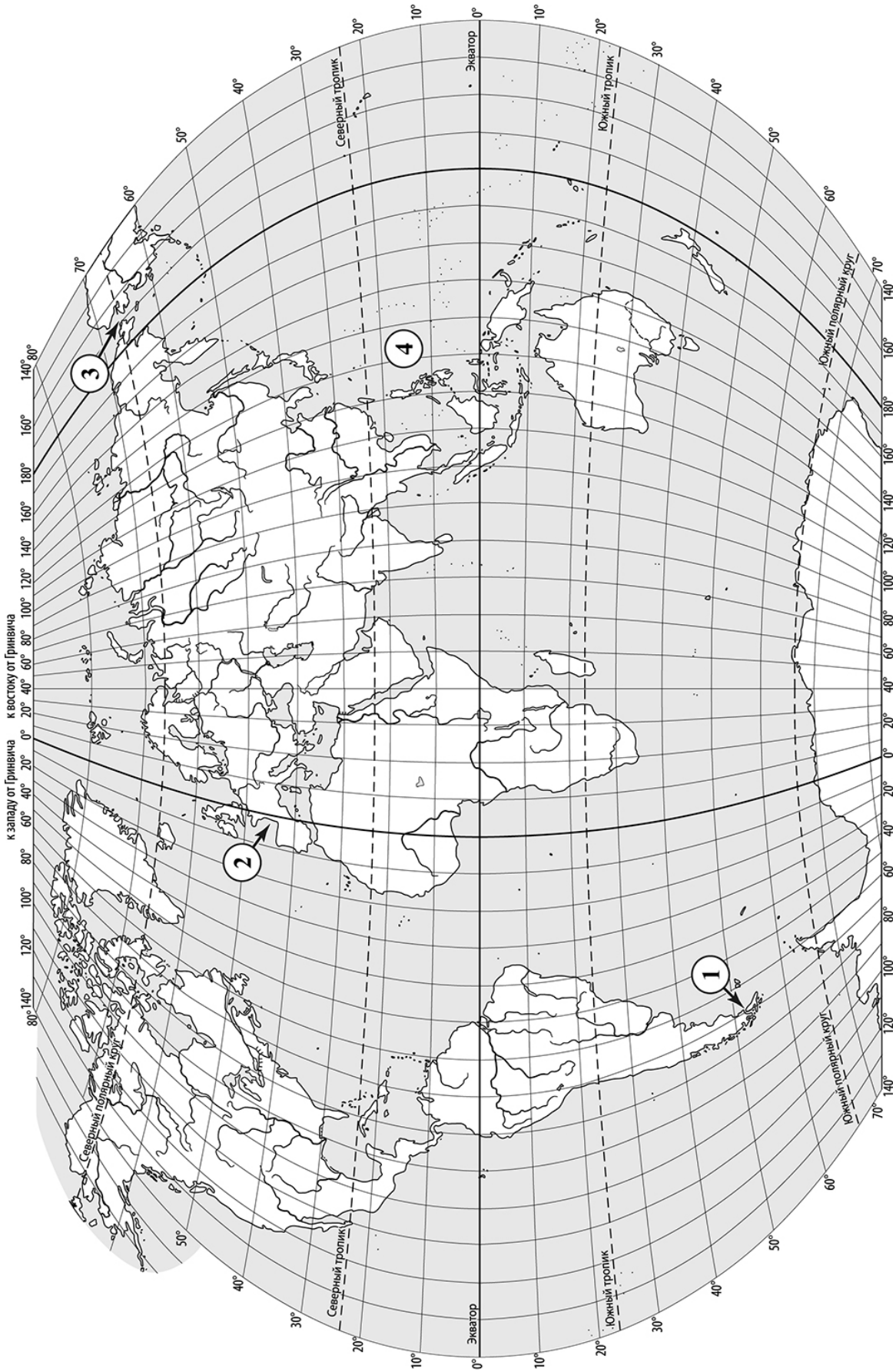
к западу от Гринвича
к востоку от Гринвича
Северный полярный круг
Южный полярный круг
Северный тропик
Южный тропик
Экватор
1
2
3
4

КОД

Задания 1 и 2 выполняются с использованием карты мира, приведённой на странице 2.

1 На карте цифрами обозначены проливы. Определите, какой цифрой обозначен Берингов пролив.

Ответ:

2 Материки со всех сторон омываются водами океанов и принадлежащих им морей. Отметьте знаком «V» на карте море, омывающее западное побережье острова Гренландия.

3 Установите соответствие между морями, обозначенными на карте буквами А–В, и типами, к которым они относятся: к каждому элементу первого столбца подберите соответствующий элемент из второго столбца.

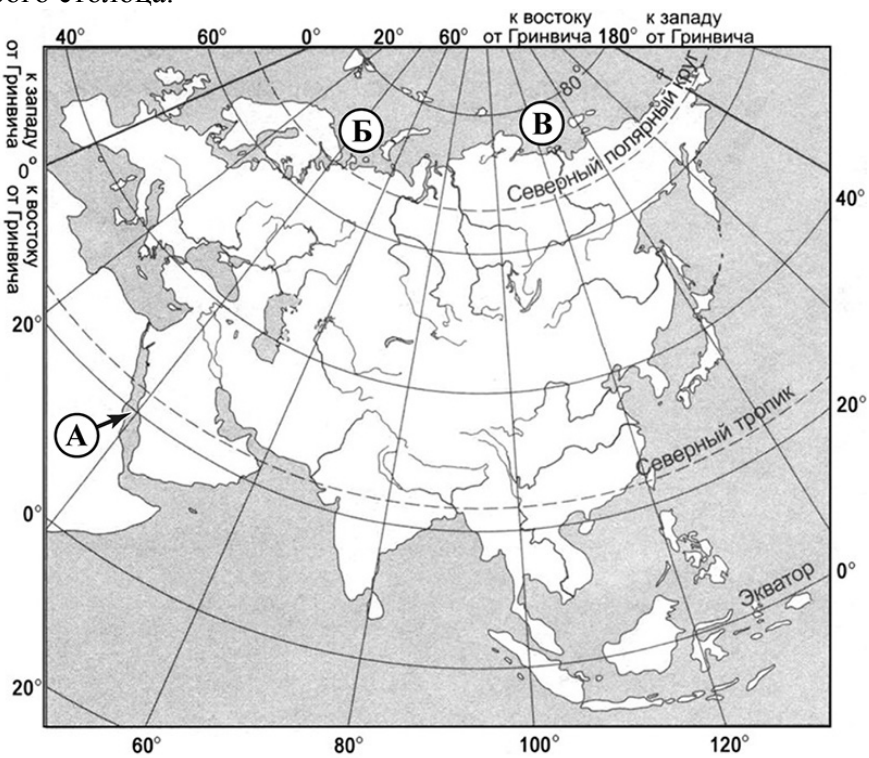

ОБОЗНАЧЕНИЯ МОРЕЙ НА КАРТЕ	ТИПЫ МОРЕЙ
А) А	1) окраинное
Б) Б	2) внутреннее
В) В	

Запишите в таблицу выбранные цифры под соответствующими буквами.

Ответ:

А	Б	В

КОД

4 В каком из следующих высказываний содержится информация о режиме реки Северной Двины?

1) Северная Двина обычно освобождается ото льда в конце апреля – начале мая.
2) Территория бассейна Северной Двины расположена в природной зоне тайги.
3) В дельте Северной Двины ежегодно образуются, а затем размываются острова.
4) В среднем течении Северная Двина протекает по широкой долине.

Ответ:

5 Какая из перечисленных рек имеет наибольшую длину?

1) Нил
2) Хуанхэ
3) Лена
4) Конго

Ответ:

6 Как называется ветер, направление которого в Северном полушарии показано на рисунке стрелкой?

Направление ветра в январе

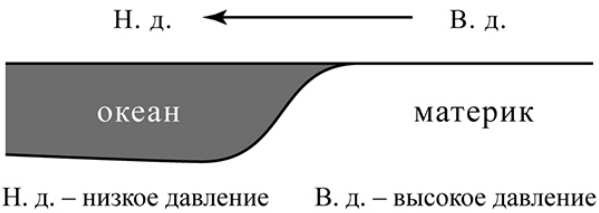

Ответ: _____

КОД

7 На острове в пунктах, обозначенных на рисунке цифрами 1, 2 и 3, были одновременно проведены измерения температуры воздуха. Расположите эти пункты в порядке повышения в них температуры, начиная с пункта, в котором температура была самой низкой. Запишите в ответе получившуюся последовательность цифр.

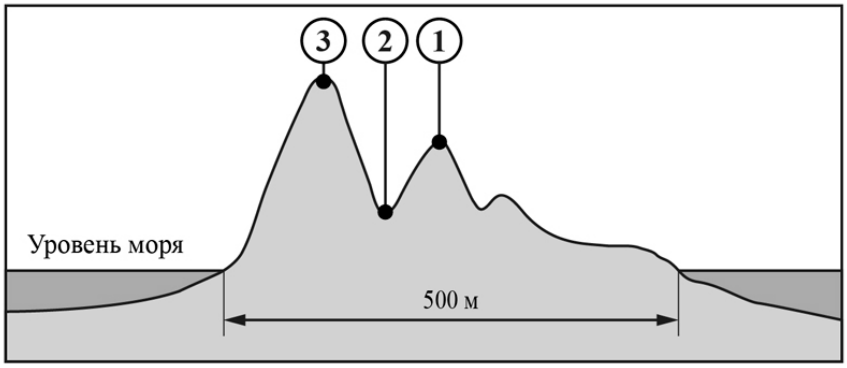

Ответ: | | | |

Задания 8 и 9 выполняются с использованием графика изменения погоды с сайта Гидрометцентра, приведённого ниже.

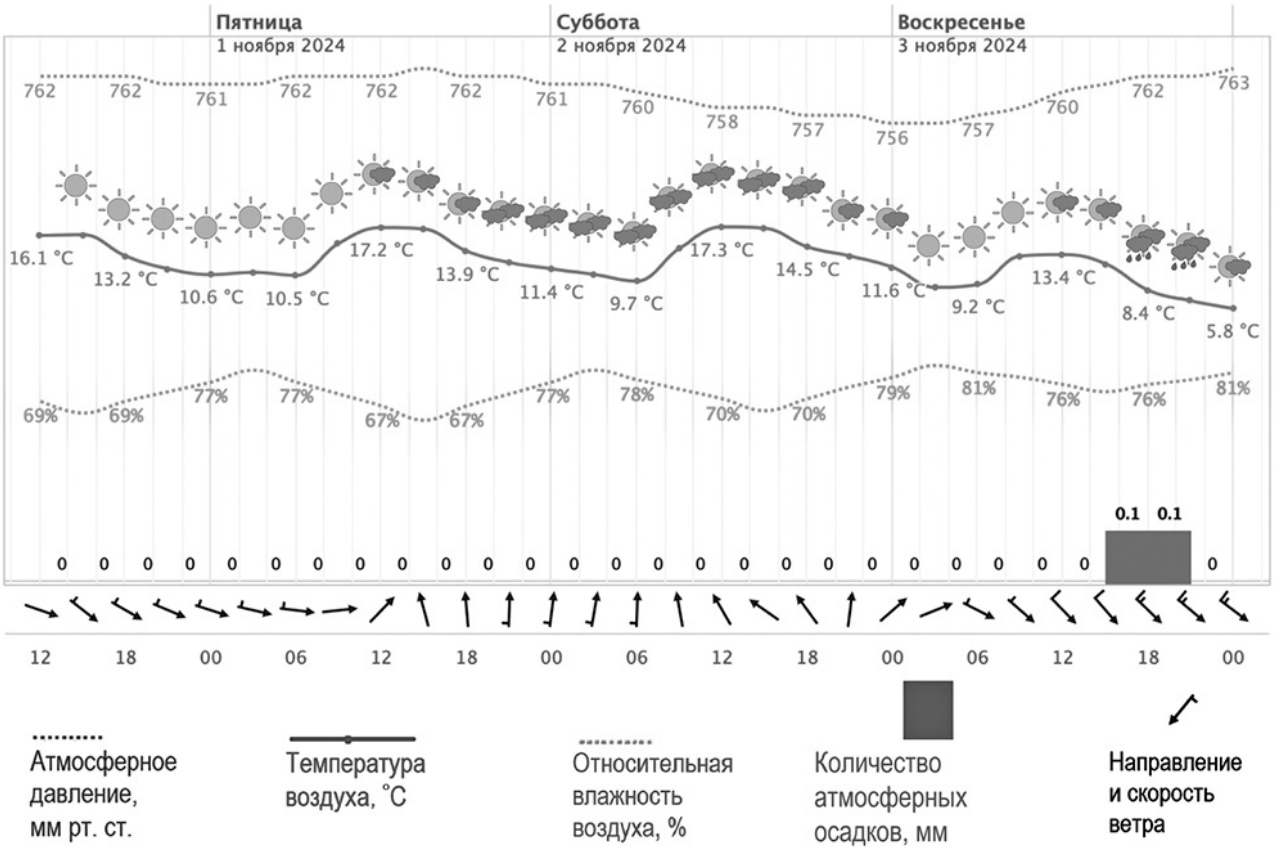

8 Определите суточную амплитуду температуры воздуха в субботу 2 ноября 2024 г.

Ответ: _____°C

КОД

9 Учитель географии дал шестиклассникам задание проанализировать приведённый выше график изменения погоды с сайта Гидрометцентра и выявить зависимость между температурой воздуха и его относительной влажностью. Ниже приводятся их ответы.
С каким ответом Вы согласны?

1) Повышение температуры воздуха приводит к увеличению его относительной влажности.
2) Зависимости относительной влажности от температуры воздуха не наблюдается.
3) Охлаждение воздуха приводит к повышению относительной влажности воздуха.
4) Температура воздуха не оказывает влияния на его относительную влажность.

Ответ:

КОД

Проверочная работа

по ГЕОГРАФИИ

6 класс

Вариант 2

Инструкция по выполнению заданий части 2 проверочной работы

На выполнение заданий части 2 проверочной работы по географии отводится один урок (не более 45 минут). Часть 2 включает в себя 8 заданий.

Ответы на задания запишите в поля ответов в тексте работы или в специально отведённом для ответа месте, указанном в задании. В случае записи неверного ответа зачеркните его и запишите рядом новый.

При выполнении заданий части 2 проверочной работы не разрешается пользоваться учебниками, рабочими тетрадями, справочным материалом. При выполнении всех заданий работы можно использовать карты атласа 6 класса.

При необходимости можно пользоваться черновиком. Записи в черновике проверяться и оцениваться не будут.

Советуем выполнять задания в том порядке, в котором они даны. В целях экономии времени пропускайте задание, которое не удаётся выполнить сразу, и переходите к следующему. Если после выполнения работы у Вас останется время, то Вы сможете вернуться к пропущенным заданиям.

Желаем успеха!

*Таблица для внесения баллов участника**

	Часть 1									Часть 2									
Номер задания	1	2	3	4	5	6	7	8	9	10	11	12	13	14	15	16	17	Сумма баллов	Отметка за работу
Баллы																			

* *Обратите внимание*: в случае, если какие-либо задания не могли быть выполнены целым классом по причинам, связанным с особенностями организации учебного процесса, в форме сбора результатов ВПР всем обучающимся класса за данные задания вместо баллов выставляется значение «Тема не пройдена». В соответствующие ячейки таблицы заполняется н/п.

КОД

10 Ниже приведены изображения термометра, при помощи которого велись наблюдения за изменением температуры воздуха в течение суток. Сравните показания термометра в разное время дня.

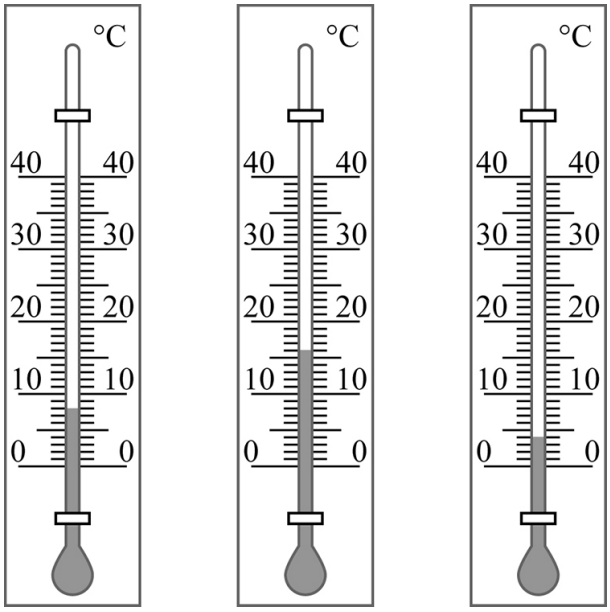

Заполните пустые ячейки таблицы наблюдений за суточной температурой воздуха, если известно, что в 6:00 была самая низкая температура воздуха, а в 14:00 – самая высокая. Запишите значения температуры воздуха в виде целого числа.

Время наблюдения	6:00	10:00	14:00
Температура воздуха, °C			

11 В каком из следующих высказываний содержится информация о климате?

1) В начале следующей недели в Омске сохранятся сильные морозы, которые в ночные часы будут достигать –40 °C.
2) На побережье Средиземного моря летом преобладает жаркий сухой воздух.
3) Скопление продуктов конденсации водяного пара у поверхности земли наблюдается в виде тумана.
4) Завтра на территории Московской области возможны сильные дожди, местами с грозами.

Ответ:

КОД

12 Расположите перечисленные параллели в порядке увеличения количества солнечного тепла, которое получает земная поверхность на этих параллелях 23 сентября, начиная с параллели, которая получает наименьшее количество солнечного тепла.

1) 65° с. ш.
2) 35° с. ш.
3) 55° ю. ш.

Запишите в ответе получившуюся последовательность цифр.

Ответ: | | | |

13 Прочитайте текст и ответьте на вопрос.

«4 июля 2020 г. в Китае начались сильные дожди, в результате которых сильно поднялся уровень воды в реках. В 212 реках по всей стране уровень воды превысил критическую отметку, а в 19 реках побил исторические рекорды. Стихия разрушила более 28 тысяч строений и уничтожила более 3,5 тысяч гектаров сельхозугодий».
Как называется стихийное явление, о котором говорится в тексте?

Ответ: _____

КОД

14 Прочитайте описание климата территории и определите, какой буквой обозначена эта территория на карте мира.

«Для климата этой территории характерна высокая (+25 °С) температура на протяжении всего года. Относительно небольшое (до 250 мм) количество осадков, что приводит к формированию засушливых территорий. Здесь всегда повышенное атмосферное давление».

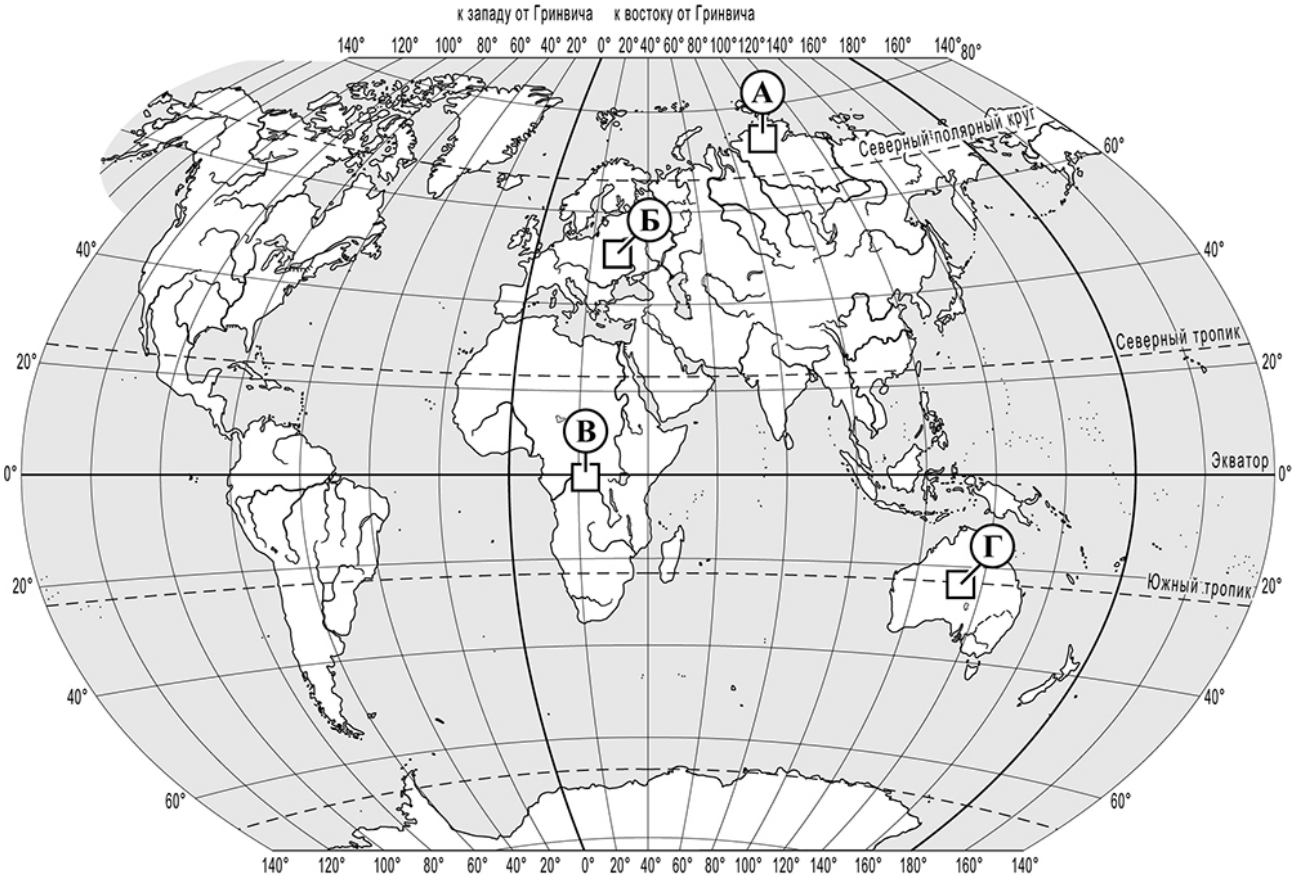

Ответ:

15 Примером приспособления животных к условиям природной зоны пустынь и полупустынь является

1) способность переносить низкие температуры
2) изменение окраса по сезонам года
3) умение лазить по деревьям
4) ведение сумеречного и ночного образа жизни

Ответ:

КОД

16 Типичными представителями растительности какой природной зоны являются кустарники и кустарнички, карликовые деревья, мхи и лишайники?

1) тайга
2) тундра
3) смешанные и широколиственные леса
4) жестколистные вечнозелёные леса и кустарники

Ответ:

17 На рисунке буквами А–Г обозначено расположение на острове четырёх метеостанций. Стрелкой показано направление ветра, преобладающего в течение года.

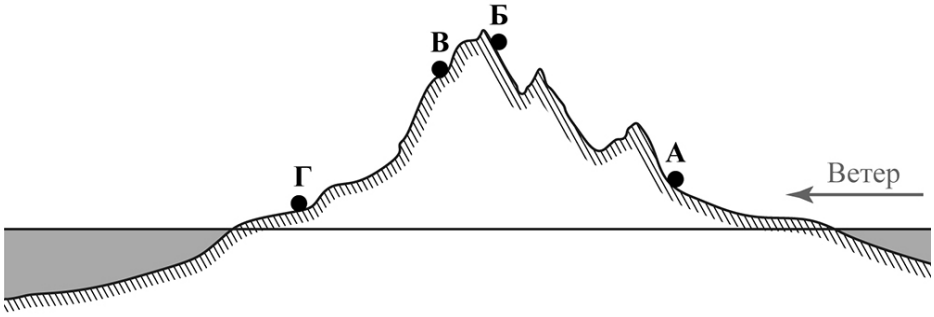

Объясните, почему на метеостанции, обозначенной на рисунке буквой Б, ежегодно фиксируется наибольшее количество выпадающих атмосферных осадков. Укажите две причины.

Ответ: _____

_____

_____

_____

Система оценивания проверочной работы

Полный правильный ответ на каждое из заданий 1, 3–9 оценивается 1 баллом. Если в ответе допущена хотя бы одна ошибка (один из элементов ответа записан неправильно или не записан), выставляется 0 баллов.

Номер задания	Правильный ответ
1	3
3	211
4	1
5	1
6	муссон (зимний муссон)
7	312
8	7,6 °С
9	3

2

Содержание верного ответа и указания по оцениванию	Баллы
На карте правильно отмечено море Баффина	
Ответ содержит названный выше элемент	1
Все ответы, которые не соответствуют вышеуказанному критерию выставления оценки в 1 балл	0
Максимальный балл	*1*

Система оценивания проверочной работы

Полный правильный ответ на каждое из заданий 11–16 оценивается 1 баллом. Если в ответе допущена хотя бы одна ошибка (один из элементов ответа записан неправильно или не записан), выставляется 0 баллов.

Номер задания	Правильный ответ
11	2
12	132
13	наводнение
14	Г
15	4
16	2

10

Содержание верного ответа и указания по оцениванию	Баллы
В таблице все графы заполнены правильно: Время наблюдения: 6:00, 10:00, 14:00 Температура воздуха, °С: 4, 8, 16	
Ответ содержит названный выше элемент	2
Ответ включает в себя названный выше элемент, но допущена одна ошибка	1
Все ответы, которые не соответствуют вышеуказанным критериям выставления оценок в 1 и 2 балла	0
Максимальный балл	*2*

17

Содержание верного ответа и указания по оцениванию (допускаются иные формулировки ответа, не искажающие его смысла)	Баллы
В ответе указаны следующие причины: 1) метеостанция Б расположена на наветренном склоне; 2) метеостанция Б расположена выше, чем метеостанция А	
Ответ включает в себя оба названных выше элемента	2
Ответ включает в себя один (любой) из названных выше элементов	1
Все ответы, которые не соответствуют вышеуказанным критериям выставления оценок в 1 и 2 балла	0
Максимальный балл	*2*

Система оценивания выполнения всей работы

Максимальный первичный балл за выполнение работы – **19**.

Рекомендации по переводу первичных баллов в отметки по пятибалльной шкале

Отметка по пятибалльной шкале	«2»	«3»	«4»	«5»
Первичные баллы	0–5	6–11	12–16	17–19