Код

Проверочная работа

по ИСТОРИИ

6 класс

Образец

Инструкция по выполнению работы

На выполнение работы по истории даётся 45 минут. Работа включает в себя 8 заданий. Часть 1 работы посвящена истории России и истории зарубежных стран (история Средних веков), в части 2 предложено задание, связанное с памятью народа России о Великой Отечественной войне.

Ответы на задания запишите в поля ответов в тексте работы. В случае записи неверного ответа зачеркните его и запишите рядом новый.

При необходимости можно пользоваться черновиком. Записи в черновике проверяться и оцениваться не будут.

Советуем выполнять задания в том порядке, в котором они даны. В целях экономии времени пропускайте задание, которое не удаётся выполнить сразу, и переходите к следующему. Если после выполнения всей работы у Вас останется время, то Вы сможете вернуться к пропущенным заданиям.

Желаем успеха!

Заполняется учителем, экспертом или техническим специалистом

Обратите внимание: в случае, если какие-либо задания не могли быть выполнены целым классом по причинам, связанным с отсутствием соответствующей темы в реализуемой школой образовательной программе, в форме сбора результатов ВПР всем обучающимся класса за данное задание вместо балла выставляется значение «Тема не пройдена». В соответствующие ячейки таблицы заполняется н/п.

Таблица для внесения баллов участника

Номер задания	1	2	3	4	5	6	7	8	Сумма баллов	Отметка за работу
Баллы										

© 2023 Федеральная служба по надзору в сфере образования и науки

Код

Часть 1

В этой части работы даны задания по истории России и истории зарубежных стран (история Средних веков).

Прочтите перечень из четырёх событий (процессов) и выполните задания, относящиеся к этому перечню.

Перечень событий (процессов)

А) Столетняя война

Б) образование Древнерусского государства

В) монгольское нашествие на Русь в XIII в.

Г) борьба Руси против монгольского владычества в XIV в.

1 Каждая из иллюстраций, приведённых ниже, относится к одному из указанных в перечне событий (процессов). Установите соответствие между событиями (процессами) и иллюстрациями: к каждому событию (процессу) подберите по одной иллюстрации.

1)

2)

3)

4)



Запишите в таблицу выбранные цифры под соответствующими буквами.

Ответ:

А	Б	В	Г

© 2023 Федеральная служба по надзору в сфере образования и науки

Код

Перечень событий (процессов)

А) Столетняя война

Б) образование Древнерусского государства

В) монгольское нашествие на Русь в XIII в.

Г) борьба Руси против монгольского владычества в XIV в.

2 Прочтите отрывок из исторического источника и определите, к какому из данных событий (процессов) он относится. В ответе напишите букву, которой обозначено это событие (процесс).

«И один из вельмож рязанских по имени Евпатий Коловрат был в то время в Чернигове вместе с князем Ингварем Ингоревичем… И уехал из Чернигова с малою дружиною, и мчался быстро. И приехал в землю Рязанскую, и увидел её опустошённой: грады разорены, церкви сожжены, люди убиты… Евпатий закричал в горести души своей и разгораясь сердцем. И собрал небольшую дружину – тысячу семьсот человек, которые Богом сохранены были вне города. И помчались вслед за царём [вражеским], и едва смогли догнать его… И внезапно напали на отдыхавшее войско вражеское…»

Ответ:

3 С каким из данных событий (процессов) связано слово «варяги»? Запишите букву, которой обозначено данное событие (процесс).

Ответ:

Объясните смысл слова «варяги».

Ответ: _____

_____

_____

_____

_____

© 2023 Федеральная служба по надзору в сфере образования и науки

Код

На позициях 4, 5 могут быть использованы задания одной из двух моделей.
Модель 1

Перечень событий (процессов)

А) Столетняя война

Б) образование Древнерусского государства

В) монгольское нашествие на Русь в XIII в.

Г) борьба Руси против монгольского владычества в XIV в.

Выберите одно событие (процесс) из перечня, а затем выполните задания 4 и 5, рассматривая в каждом из заданий выбранное событие (процесс). Перед выполнением каждого из заданий 4 и 5 укажите букву, которой выбранное событие (процесс) обозначено в перечне. Указанные в заданиях 4 и 5 буквы должны быть одинаковыми.

4 Выбранное событие (процесс): ☐ (укажите букву в перечне).

Укажите две исторические личности, непосредственно связанные с выбранным Вами событием (процессом).

Укажите одно любое действие каждой из этих личностей, в значительной степени повлиявшее на ход и (или) результат этого события (процесса).

Ответ запишите в таблицу.

! Не следует указывать исторические личности, упомянутые в отрывке из исторического источника в задании 2.

Ответ:

Личности	Действия
1.	
2.	

© 2023 Федеральная служба по надзору в сфере образования и науки

Код

Перечень событий (процессов)

А) Столетняя война

Б) образование Древнерусского государства

В) монгольское нашествие на Русь в XIII в.

Г) борьба Руси против монгольского владычества в XIV в.

5 Выбранное событие (процесс): ☐ (укажите букву в перечне).

Заштрихуйте на контурной карте один четырёхугольник, образованный градусной сеткой, в котором полностью или частично происходило выбранное Вами событие (процесс).

© 2023 Федеральная служба по надзору в сфере образования и науки

Код

Модель 2

4 Укажите две исторические личности, которые были непосредственно связаны с присоединением Новгорода к Московскому государству.

Укажите одно любое действие каждой из этих личностей, в значительной степени повлиявшее на ход присоединения Новгорода к Московскому государству.

Ответ запишите в таблицу.

Ответ:

Личности	Действия
1.	
2.	

© 2023 Федеральная служба по надзору в сфере образования и науки

Код

5 Заштрихуйте на контурной карте один четырёхугольник, образованный градусной сеткой, в котором располагалось Крымское ханство.

© 2023 Федеральная служба по надзору в сфере образования и науки

Код

Рассмотрите изображения

1)



2)

3)

4)

6 На каких двух изображениях представлены памятники культуры России, а на каких – памятники культуры зарубежных стран? Запишите в таблицу порядковые номера соответствующих изображений.

Ответ:

Памятники культуры России		Памятники культуры зарубежных стран	

© 2023 Федеральная служба по надзору в сфере образования и науки

Код

7 Какие из перечисленных памятников культуры были созданы до начала монгольского нашествия на русские земли? Выберите два памятника культуры и запишите в таблицу цифры, под которыми они указаны.

1) «Повесть временных лет»
2) «Повесть о разорении Рязани Батыем»
3) «Задонщина»
4) «Слово о Законе и Благодати»
5) «Повесть о житии Александра Невского»

Ответ: | | |

Часть 2

8 Рассмотрите изображение и выполните задание.

Укажите название государственного праздника, на котором была сделана данная фотография. Объясните, почему в этот день граждане России испытывают «радость со слезами на глазах».

Ответ: _____

© 2023 Федеральная служба по надзору в сфере образования и науки

Код

Система оценивания диагностической работы по истории

Каждое из заданий 1, 2, 6, 7 считается выполненным верно, если правильно указаны буква, последовательность цифр или слово (словосочетание).

Полный правильный ответ на каждое из заданий 2 и 6 оценивается 1 баллом; неполный, неверный ответ или его отсутствие – 0 баллов.

Правильный ответ на каждое из заданий 1 и 7 оценивается 2 баллами. Если в ответе допущена одна ошибка (в том числе написана лишняя цифра или не написана одна необходимая цифра), выставляется 1 балл; если допущено две или более ошибки – 0 баллов.

Номер задания	Правильный ответ
1	3142
2	В
6	1423; 4123; 4132; 1432
7	14

© 2023 Федеральная служба по надзору в сфере образования и науки

Код

Критерии оценивания выполнения заданий с развёрнутым ответом

3 С каким из данных событий (процессов) связано слово «варяги»? Запишите букву, которой обозначено данное событие (процесс).
Объясните смысл слова «варяги».

Содержание верного ответа и указания по оцениванию (допускаются иные формулировки ответа, не искажающие его смысла)	**Баллы**
Правильный ответ должен содержать следующие элементы: 1) буква, которой обозначено данное событие (процесс), – Б; 2) объяснение смысла слова «варяги», например: собирательное обозначение выходцев из Балтийского региона в древнерусских источниках, наёмные воины русских князей IX–XI вв. и купцы, торговавшие на пути «из варяг в греки». Объяснение смысла слова может быть дано в иных, близких по смыслу формулировках	
Правильно указана буква и объяснён смысл слова «варяги»	3
Правильно указана буква, объяснение содержит неточность(-и), существенно не искажающую(-ие) смысла слова «варяги». ИЛИ Правильно указана буква, объяснение содержит не основные, а только второстепенные (несущественные) признаки, не в полной мере раскрывающие смысл слова «варяги»	2
Правильно указана только буква	1
Буква указана неправильно / не указана независимо от наличия/отсутствия объяснения смысла слова. ИЛИ Приведены рассуждения общего характера, не соответствующие требованию задания. ИЛИ Ответ неправильный	0
Максимальный балл	*3*

© 2023 Федеральная служба по надзору в сфере образования и науки

Код

Для модели 1

4 Выбранное событие (процесс): ☐ (укажите букву в перечне).

Укажите две исторические личности, непосредственно связанные с выбранным Вами событием (процессом).
Укажите одно любое действие каждой из этих личностей, в значительной степени повлиявшее на ход и (или) результат этого события (процесса).
Ответ запишите в таблицу.

! Не следует указывать исторические личности, упомянутые в отрывке из исторического источника в задании 2.

Ответ:

Личности	Действия
1.	
2.	

При оценивании ответа не засчитываются указания исторических личностей и их действий, упомянутых в отрывке из исторического источника в задании 2.

Критерии оценивания	**Баллы**
Правильно указаны две личности и действие каждой из них	3
Правильно указаны одна-две личности и действие только одной из них	2
Правильно указаны только две личности	1
Правильно указана только одна личность. ИЛИ Приведены рассуждения общего характера, не соответствующие требованию задания. ИЛИ Ответ неправильный	0
Максимальный балл	*3*

© 2023 Федеральная служба по надзору в сфере образования и науки

Код

5 Выбранное событие (процесс): ☐ (укажите букву в перечне).

Заштрихуйте на контурной карте один четырёхугольник, образованный градусной сеткой, в котором полностью или частично происходило выбранное Вами событие (процесс).

Содержание верного ответа и указания по оцениванию (допускаются иные формулировки ответа, не искажающие его смысла)	**Баллы**
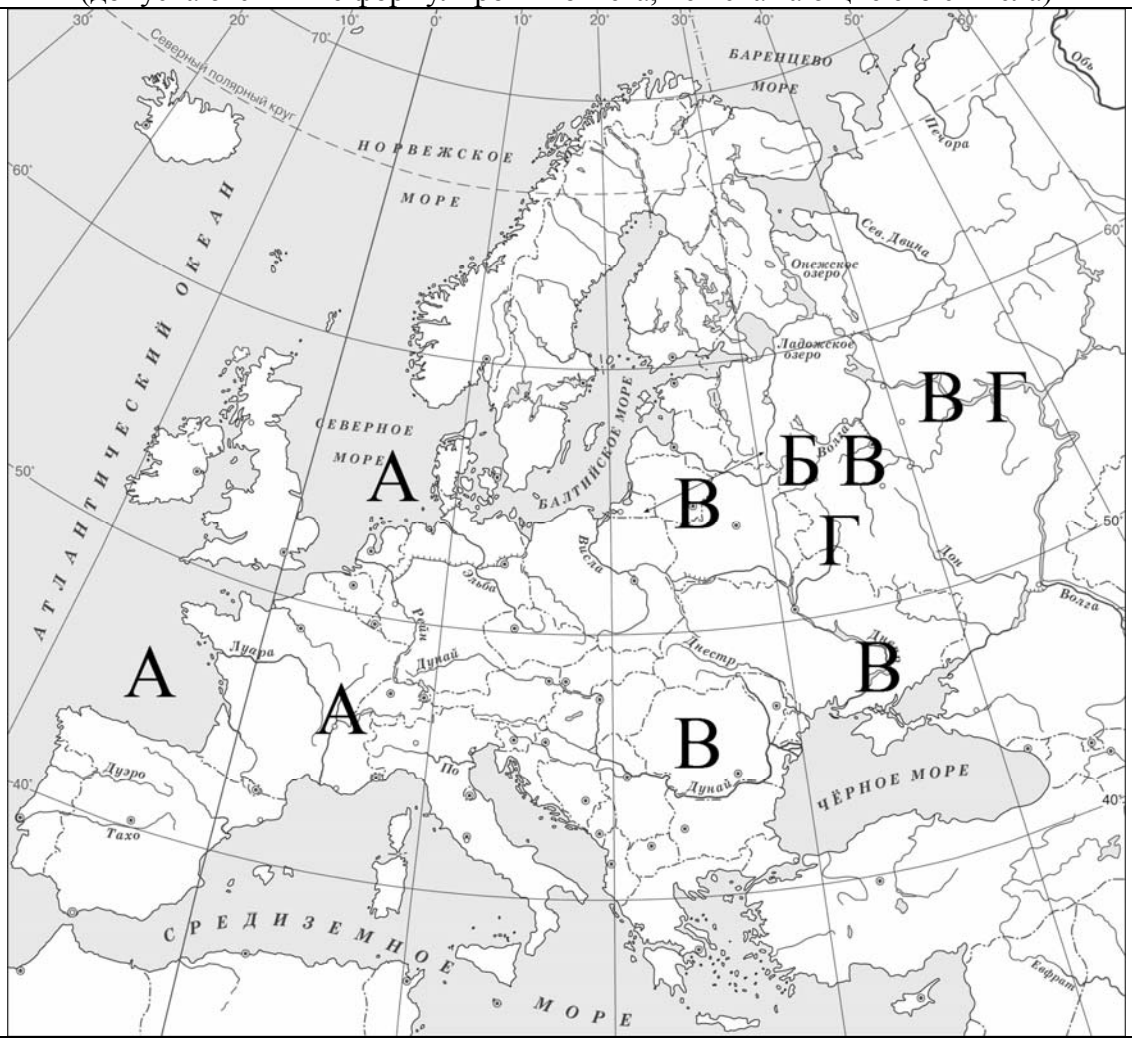	
Заштрихован четырёхугольник, образованный градусной сеткой, в котором полностью или частично происходило выбранное событие (процесс) (допустимы небольшие отклонения, связанные с недостаточной аккуратностью) ИЛИ Заштрихованы два или более четырёхугольника, во всех заштрихованных четырёхугольниках полностью или частично происходило выбранное событие (процесс) (допустимы небольшие отклонения, связанные с недостаточной аккуратностью)	1
Заштрихован четырёхугольник, образованный градусной сеткой, в котором не происходило выбранное событие (процесс). ИЛИ Заштрихованы два или более четырёхугольника, в некоторых из заштрихованных четырёхугольников полностью или частично происходило выбранное событие (процесс). ИЛИ Задание не выполнено	0
Максимальный балл	*1*

© 2023 Федеральная служба по надзору в сфере образования и науки

Код

Для модели 2

4

Укажите две исторические личности, которые были непосредственно связаны с присоединением Новгорода к Московскому государству.
Укажите одно любое действие каждой из этих личностей, в значительной степени повлиявшее на ход присоединения Новгорода к Московскому государству.
Ответ запишите в таблицу.

Ответ:

Личности	Действия
1.	
2.	

При оценивании ответа не засчитываются указания исторических личностей и их действий, упомянутых в отрывке из исторического источника в задании 2.

Критерии оценивания	**Баллы**
Правильно указаны две личности и действие каждой из них	3
Правильно указаны одна-две личности и действие только одной из них	2
Правильно указаны только две личности	1
Правильно указана только одна личность. ИЛИ Приведены рассуждения общего характера, не соответствующие требованию задания. ИЛИ Ответ неправильный	0
Максимальный балл	*3*

© 2023 Федеральная служба по надзору в сфере образования и науки

Код

5 Заштрихуйте на контурной карте один четырёхугольник, образованный градусной сеткой, в котором располагалось Крымское ханство.

Содержание верного ответа и указания по оцениванию (допускаются иные формулировки ответа, не искажающие его смысла)	**Баллы**
Заштрихован четырёхугольник, образованный градусной сеткой, в котором располагалось Крымское ханство (допустимы небольшие отклонения, связанные с недостаточной аккуратностью)	1
Заштрихован четырёхугольник, образованный градусной сеткой, в котором не располагалось Крымское ханство. ИЛИ Заштрихованы два или более четырёхугольника, в одном из которых располагалось Крымское ханство. ИЛИ Задание не выполнено	0
Максимальный балл	*1*

© 2023 Федеральная служба по надзору в сфере образования и науки

Код

8 Рассмотрите изображение и выполните задание.

Укажите название государственного праздника, на котором была сделана данная фотография. Объясните, почему в этот день граждане России испытывают «радость со слезами на глазах».

Содержание верного ответа и указания по оцениванию (допускаются иные формулировки ответа, не искажающие его смысла)	**Баллы**
Правильный ответ должен содержать следующие элементы: 1) название государственного праздника – День Победы; 2) объяснение, например: Победа над гитлеровской Германией была добыта ценой огромных потерь, которые коснулись каждой семьи. Поэтому в День Победы граждане России одновременно празднуют и скорбят о погибших в годы Великой Отечественной войны. Объяснение может быть дано в иных, близких по смыслу формулировках	
Правильно указано название праздника и объяснение	3
Правильно указано название государственного праздника, объяснение содержит неточность(-и), существенно не искажающую(-ие) смысла ответа. ИЛИ Правильно указано название государственного праздника, объяснение содержит не основные, а только второстепенные (несущественные) связи, не в полной мере раскрывающие суть ответа на задание	2
Правильно указано только название праздника	1
Название праздника указано неправильно / не указано независимо от наличия/отсутствия объяснения. ИЛИ Приведены рассуждения общего характера, не соответствующие требованию задания	0
Максимальный балл	*3*

Система оценивания выполнения всей работы

Максимальный первичный балл за выполнение работы – **16**.

Рекомендации по переводу первичных баллов в отметки по пятибалльной шкале

Отметка по пятибалльной шкале	**«2»**	**«3»**	**«4»**	**«5»**
Первичные баллы	0–3	4–8	9–12	13–16

© 2023 Федеральная служба по надзору в сфере образования и науки