 КОД

Логин ОО

Всероссийская проверочная работа

ДЛЯ ОЦЕНКИ МЕТАПРЕДМЕТНЫХ РЕЗУЛЬТАТОВ ОБУЧЕНИЯ

в соответствии с федеральным государственным образовательным стандартом среднего общего образования

для обучающихся по программам среднего профессионального образования, завершивших в предыдущем учебном году освоение общеобразовательных предметов, проходящих обучение по очной форме на базе основного общего образования.

Вариант 91955

Инструкция по выполнению работы

Проверочная работа включает в себя 22 задания.

На выполнение диагностической работы отводится 2 часа (120 минут).

Ответами к заданиям 1, 2, 5, 6, 8, 9–12, 17–21 являются цифра, последовательность цифр или слово (словосочетание).

Задания 3, 4, 7, 13–16, 22 требуют полного ответа (дать объяснение, описание или обоснование; высказать и аргументировать собственное мнение). В случае записи неверного ответа зачеркните его и запишите рядом новый.

При выполнении работы не разрешается пользоваться учебниками, рабочими тетрадями и другими справочными материалами.

При выполнении заданий Вы можете пользоваться черновиком. Записи в черновике проверяться и оцениваться не будут.

Советуем выполнять задания в том порядке, в котором они даны. В целях экономии времени пропускайте задание, которое не удаётся выполнить сразу, и переходите к следующему. Если после выполнения всей работы у Вас останется время, то Вы сможете вернуться к пропущенным заданиям.

Баллы, полученные Вами за выполненные задания, суммируются. Постарайтесь выполнить как можно больше заданий и набрать наибольшее количество баллов.

Желаем успеха!

Таблица для внесения баллов участника

Номер задания	1	2	3	4	5	6	7	8	9	10	11	12	13	14
Баллы														

Номер задания	15(1)	15(2)	16	17	18	19	20	21	22	Сумма баллов	Отметка за работу
Баллы											

© 2021 Федеральная служба по надзору в сфере образования и науки

1 Установите соответствие между историческими деятелями и информацией, относящейся к ним: к каждой позиции первого столбца подберите соответствующую позицию из второго столбца.

ИСТОРИЧЕСКИЕ ДЕЯТЕЛИ	ИНФОРМАЦИЯ
А) П.Н. Врангель	1) один из руководителей белого движения в годы Гражданской войны
Б) И.В. Сталин	2) Председатель Государственного комитета обороны СССР
В) А.А. Леонов	3) первый Председатель Совета Народных Комиссаров
	4) лётчик-космонавт СССР, впервые вышедший в открытый космос

Запишите в таблицу выбранные цифры под соответствующими буквами.

Ответ:

А	Б	В

2 Прочитайте четыре предложения. Два из них содержат события, процессы, явления, являющиеся причинами (предпосылками). Другие два содержат последствия этих событий, процессов, явлений. Подберите для каждой из причин (предпосылок) соответствующее ей последствие. Номера соответствующих предложений запишите в таблицу.

1) Началось контрнаступление Красной армии под Москвой.
2) Создалась непосредственная угроза Сталинграду со стороны немецко-фашистских войск.
3) Был издан приказ № 227, вошедший в историю войны как приказ «Ни шагу назад!».
4) Япония и Турция окончательно отказались от вступления в войну на стороне Германии.

	Номер предложения, содержащего			
	причину (предпосылку) 1	последствие 1	причину (предпосылку) 2	последствие 2
Ответ:				

100balnik.ru

3 Рассмотрите изображение и выполните задание.

Укажите название процесса форсированного наращивания промышленного потенциала СССР, в ходе которого был создан данный плакат.

Ответ: _____

_____

Объясните, почему результаты указанного вами процесса важны а) для нашей страны, б) для всего человечества.

Ответ: _____

_____

_____

_____

_____

_____

_____

_____

_____

_____

_____

_____

4 Прочтите отрывок из воспоминаний участника событий и выполните задание.

«Рейд в тыл противника – это вот настоящая задача Конному корпусу! Ещё по результатам рейда Особой кавалерийской дивизии в январе – феврале 1919 года под Царицыном мы все убедились, какое огромное влияние оказывают успешные рейдовые операции на изменение всей обстановки на фронте.

Корпус мог успешно громить превосходящие силы белогвардейской кавалерии в открытом бою. Это доказал уже целый ряд операций. Но почему же под Касторной он не мог добиться успеха с ходу? Почему корпусу пришлось вести тут тяжёлые кровопролитные и затяжные бои? Не буду говорить, что нам погода мешала, хотя она, безусловно, мешала, не стану говорить и о численном превосходстве противника, которое в данном случае было подавляющим. Одно это ещё не могло бы задержать корпус. Главная трудность состояла в том, что противник занимал очень выгодный оборонительный район, прикрытый бронепоездами, которые не знали недостатка в огнеприпасах, обладали высокой маневренностью и могли создавать полосы перекрёстного огня на всех подступах к станции Касторной».

Укажите войну, в ходе которой произошли описываемые события. Что, по словам автора, стало для Конного корпуса главной трудностью в боях у Касторной?
Назовите одного любого военачальника, сражавшегося в войне, события которой описываются в данном отрывке на противостоящей автору стороне.

Ответ: _____

Ознакомьтесь с перечнем и изображениями памятников культуры и выполните задания 5 и 6.

1) роман «Отцы и дети»;
2) кинофильм «Ирония судьбы, или С лёгким паром!»;

3)

4)

5 Какие из приведённых памятников культуры были созданы в XX в.? Выберите два памятника культуры и запишите в таблицу цифры, под которыми они указаны.

Ответ:

6 В создании какого из приведённых памятников культуры участвовал Э.А. Рязанов? Укажите порядковый номер этого памятника культуры.

Ответ:

100balnik.ru

7

Рассмотрите изображение и выполните задание.

Укажите год, когда был создан данный плакат. Какой смысл имеет изображение на плакате разорванного международного договора?

Ответ: _____

8 На рисунке отражено изменение спроса на модель телевизора на соответствующем рынке: линия спроса D переместилась в новое положение – D_1. (P – цена; Q – количество.)

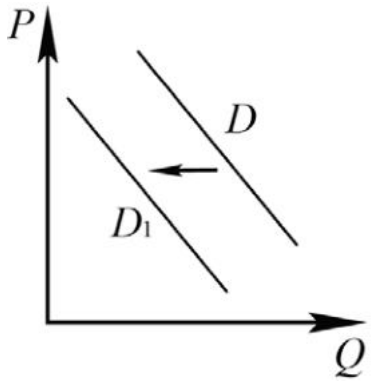

Какие из перечисленных факторов могут вызвать такое изменение? Запишите **цифры**, под которыми они указаны.

1) появление негативных отзывов о данной модели в Интернете
2) наличие более дешёвых моделей со сходными характеристиками
3) проведение удачной рекламной кампании
4) появление моды на другие модели телевизоров
5) увеличение числа покупателей телевизоров

Ответ: _____.

9 Установите соответствие между примерами и видами налогов и сборов согласно Налоговому кодексу РФ: к каждой позиции, данной в первом столбце, подберите соответствующую позицию из второго столбца.

ПРИМЕРЫ	ВИДЫ НАЛОГОВ И СБОРОВ В РФ
А) торговый сбор	1) федеральные
Б) налог на имущество физических лиц	2) региональные
В) налог на доходы физических лиц	3) местные
Г) налог на имущество организаций	
Д) транспортный налог	

Запишите в таблицу выбранные цифры под соответствующими буквами.

Ответ:

А	Б	В	Г	Д

10 Выберите в приведённом списке положения, характеризующие основы конституционного строя РФ. Запишите **цифры**, под которыми они указаны.

1) Никакая религия не может устанавливаться в виде государственной или обязательной.
2) До совершеннолетия граждане обладают частичной дееспособностью.
3) Уголовная ответственность наступает только за приготовление к особо тяжкому преступлению.
4) Для заключения брака необходимы взаимное добровольное согласие мужчины и женщины, вступающих в брак, и достижение ими брачного возраста.
5) Российская Федерация обеспечивает целостность и неприкосновенность своей территории.

Ответ: _____.

100balnik.ru

11 Установите соответствие между полномочиями и субъектами государственной власти РФ, реализующими эти полномочия: к каждой позиции, данной в первом столбце, подберите соответствующую позицию из второго столбца.

ПОЛНОМОЧИЯ	СУБЪЕКТЫ ГОСУДАРСТВЕННОЙ ВЛАСТИ РФ
А) утверждение изменения границ между субъектами РФ	1) Совет Федерации
Б) осуществление управления федеральной собственностью	2) Президент РФ
В) обеспечение исполнения федерального бюджета	3) Правительство РФ
Г) утверждение военной доктрины РФ	
Д) назначение выборов Президента Российской Федерации	

Запишите в таблицу выбранные цифры под соответствующими буквами.

Ответ:

А	Б	В	Г	Д

12 Гражданину РФ Евгению 52 года, он успешно прошёл собеседование при приёме на работу. Но работодатель отдал предпочтение другому претенденту, менее успешно прошедшему собеседование, только потому, что он моложе Евгения на восемь лет. Найдите в приведённом списке позиции, соответствующие правовому контексту описанной ситуации, и запишите **цифры**, под которыми они указаны.

1) уголовное право
2) иск в суд
3) заявление в отдел полиции
4) дискриминация
5) дисциплинарный проступок
6) трудовое право

Ответ: _____.

100balnik.ru

13

Семья Петровых состоит из четырёх человек: Анны, Фёдора и двоих их сыновей. Супруги работают, дети учатся в школе. Средства расходуются в первую очередь на приобретение еды, одежды, лекарств, оплату транспортных и коммунальных услуг. Оставшиеся средства вкладываются на депозит в банке.

1) Какую функцию семьи иллюстрирует этот пример?

2) Почему семья Петровых относится к нуклеарному типу?

3) Какая информация Вам необходима для того, чтобы установить, является семья Петровых патриархальной или демократической? (Сформулируйте два вопроса, необходимых для получения данной информации.)

4) Каковы источники доходов семейного бюджета семьи Петровых? (Назовите два типа источников.)

Ответ на первый вопрос: _____

_____

_____

Ответ на второй вопрос:_____

_____

_____

_____

Ответ на третий вопрос: _____

_____

_____

_____

Ответ на четвёртый вопрос:_____

_____

_____

_____

14

В ходе социологических опросов совершеннолетних жителей страны Z им задавали вопрос о том, какие банковские услуги они считают наиболее востребованными (можно было дать несколько ответов).

Полученные результаты (в % от числа опрошенных) представлены в виде диаграммы.

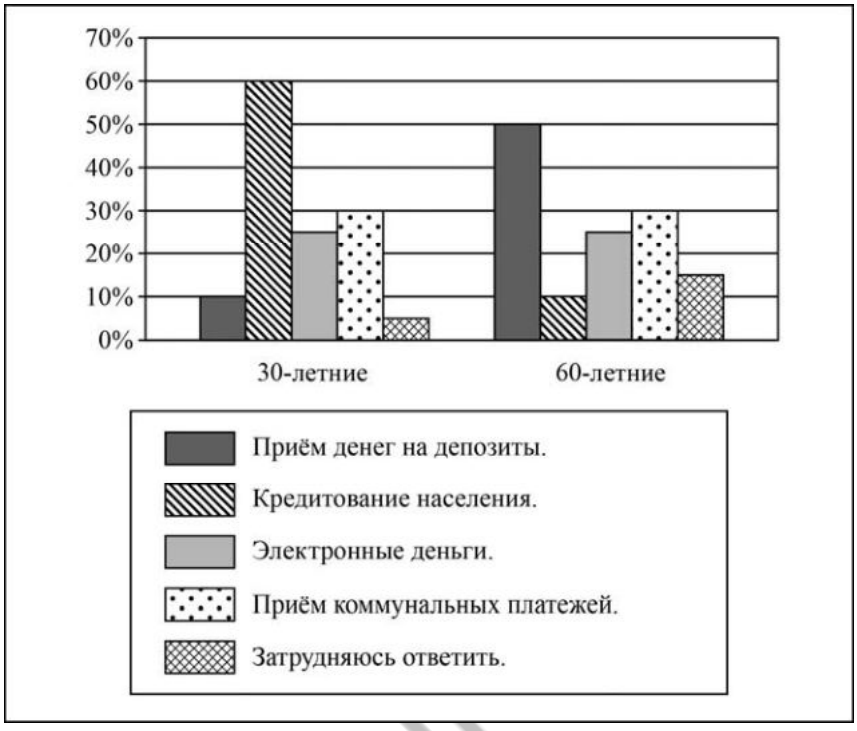

Сформулируйте по одному выводу: а) о сходстве; б) о различии в позициях групп опрошенных. Выскажите предположение о том, чем объясняются указанные Вами: а) сходство; б) различие.

Ответ: _____

15 Начался пожар на балконе (лоджии) вашей квартиры**.**
Назовите не менее четырёх правил безопасного поведения, которые необходимо выполнить в этом случае.

Ответ: _____

_____

_____

_____

_____

_____

_____

_____

_____

_____

16 Собираясь в лес на прогулку, за грибами, за ягодами, на рыбалку необходимо соблюдать элементарные правила безопасности, чтобы не заблудиться.
Объясните, в чём состоит опасность, если человек заблудился.
Назовите не менее двух действий, которые нужно предпринять, если человек в лесу заблудился.

Ответ: _____

_____

_____

_____

_____

_____

_____

_____

_____

_____

17 Определите регион России по его краткому описанию.

Это самая маленькая по площади территории область России. Одним из её основных природных богатств является янтарь: здесь сосредоточено более 90% мировых разведанных запасов этого минерала. Морской порт областного центра – ворота России в Европу. Основными отраслями хозяйства являются машиностроение и рыбная промышленность.

Ответ: _____.

18 Прочитайте приведённый ниже текст, в котором пропущен ряд слов. Выберите из предлагаемого списка слова, которые необходимо вставить на места пропусков.

Особенности природы Европейского Юга России

Европейский Юг отличается от других географических районов России рядом особенностей, в том числе географическим положением и рельефом. Его территория имеет выход к нескольким морям. Район находится в южной части _____(А) климатического пояса. По рельефу делится на две части: равнинную и горную. Кавказские горы – это _____(Б) горы. Бóльшая часть равнинной территории района относится к природной зоне степей с плодородными чернозёмными почвами, к _____(В) переходящей в сухие степи и полупустыни.

Выбирайте последовательно одно слово за другим, мысленно вставляя на места пропусков слова из списка в нужной форме. Обратите внимание на то, что слов в списке больше, чем Вам потребуется для заполнения пропусков. Каждое слово может быть использовано только один раз.

Список слов:

1) древние
2) субтропический
3) молодые
4) умеренный
5) запад
6) восток

В данной ниже таблице приведены буквы, обозначающие пропущенные слова. Запишите в таблицу под каждой буквой номер выбранного Вами слова.

Ответ:

А	Б	В

19 Установите соответствие между субъектом РФ и его административным центром: к каждому элементу первого столбца подберите соответствующий элемент из второго столбца.

СУБЪЕКТ РФ	АДМИНИСТРАТИВНЫЙ ЦЕНТР
А) Алтайский край	1) Нарьян-Мар
Б) Свердловская область	2) Екатеринбург
В) Ненецкий автономный округ	3) Барнаул
	4) Кызыл

Запишите в таблицу выбранные цифры под соответствующими буквами.

Ответ:

А	Б	В

100balnik.ru

20 Потенциал российских регионов для развития туризма огромен. Каждый из них имеет рекреационные ресурсы, способные привлечь тысячи туристов из России и зарубежных стран. Определите субъект Российской Федерации по описанию его рекреационного потенциала.

«В список Всемирного наследия ЮНЕСКО включены десять древних православных храмов и монастырей, находящихся в областном центре. Туристов привлекают музейный комплекс "Пушкинские Горы", музей-заповедник "Изборск", основу которого составляет русская крепость XIV-XVII веков, построенная для защиты западных пределов русских земель и выдержавшая множество осад. Благоприятные природные условия – мягкий климат, многочисленные живописные озёра и реки, сосновые боры способствуют развитию рекреационного туризма.»

Ответ: _____

21 На выборах депутатов Государственной Думы избирательные участки работают с 8 до 20 часов по местному времени. Используя карту, определите, в каких из перечисленных регионов в 4 часа 30 минут утра по московскому времени голосование уже началось. Запишите **цифры**, под которыми они указаны.

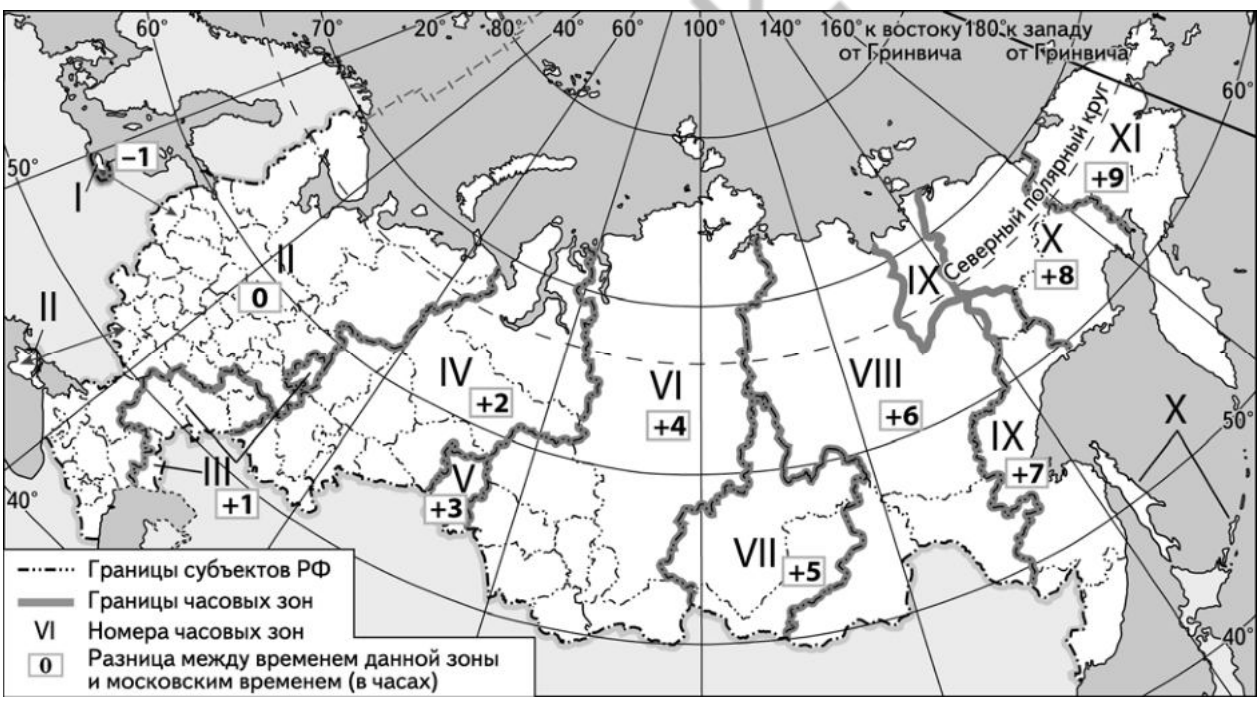

1) Челябинская область
2) Омская область
3) Красноярский край
4) Республика Бурятия
5) Амурская область
6) Республика Татарстан

Ответ: _____.

22

Портал «Госуслуги» (https://www.gosuslugi.ru) является одним из самых востребованных интернет-сервисов для решения вопросов, связанных с обращением в органы государственной власти Российской Федерации, различные ведомства и организации.
На портале возможны три уровня регистрации:

упрощённый – указываются контактные данные, доступ к услугам ограничен;
стандартный – указываются персональные данные, доступ к услугам ограничен;
подтверждённый – помимо указания персональных данных требуется процедура подтверждения личности.

Пользователю с подтверждённым уровнем регистрации доступен наиболее широкий набор услуг, включая выдачу различных персональных документов и справок.
Ответьте на следующие вопросы, связанные с использованием портала «Госуслуги».

1) Какие сведения (персональные данные) помимо ФИО должен указать гражданин при регистрации? Приведите не менее 4 различных позиций.

Ответ: _____

_____

_____

_____

_____

2) Каких рисков позволяет избежать ограничение по набору доступных услуг, введённое для пользователей со стандартным уровнем регистрации?
Ответ: _____

_____

_____

_____

_____

3) В чём удобство загрузки и хранения всех персональных данных на портале «Госуслуги» для гражданина, получившего подтверждённый уровень регистрации?
Ответ: _____

_____

_____

_____

_____

4) В чём удобство электронного способа получения справки по сравнению с очным визитом в соответствующее учреждение?

Ответ: _____

_____

_____

_____

_____

100balnik.ru

Логин ОО

Система оценивания проверочной работы

Правильный ответ на каждое из заданий 1, 2, 5, 6, 8, 10, 17–21 оценивается 1 баллом. Задание считается выполненным верно, если ответ записан в той форме, которая указана в инструкции по выполнению задания.

Полный правильный ответ на каждое из заданий 9, 11, 12 оценивается 2 баллами. Ответы на эти задания оцениваются следующим образом: полное правильное выполнение задания – 2 балла; выполнение задания с одной ошибкой (одной неверно указанной, в том числе лишней, цифрой наряду со всеми верными цифрами) ИЛИ неполное выполнение задания (отсутствие одной необходимой цифры) – 1 балл; неверное выполнение задания (при указании двух или более ошибочных цифр) – 0 баллов.

100balnik.ru

Номер задания	Правильный ответ
1	124
2	1423; 2314
5	2,4
6	2
8	124
9	33122
10	15
11	13321
12	246
17	Калининградская
18	436
19	321
20	Псковская область
21	345

© 2021 Федеральная служба по надзору в сфере образования и науки

Критерии оценивания выполнения заданий с развернутым ответом

3

Содержание верного ответа и указания по оцениванию (допускаются иные формулировки ответа, не искажающие его смысла)	**Баллы**
Правильный ответ должен содержать следующие элементы: 1) название процесса – индустриализация; 2) объяснения, например: а) СССР вышел на второе место в мире по объёму промышленного производства после США, став одной из наиболее индустриально развитых стран; б) создание оборонной промышленности в ходе индустриализации способствовало победе СССР в Великой Отечественной войне, что спасло мир от фашистского порабощения. Могут быть даны иные объяснения	
Правильно указано название процесса, приведены объяснения по двум пунктам	2
Правильно указано название процесса, приведено объяснение только по одному любому пункту	1
Правильно указано только название процесса. ИЛИ Название процесса не указано / указано неправильно независимо от наличия объяснений. ИЛИ Приведены рассуждения общего характера, не соответствующие требованию задания	0
Максимальный балл	*2*

4

Содержание верного ответа и указания по оцениванию (допускаются иные формулировки ответа, не искажающие его смысла)	**Баллы**
Правильный ответ должен содержать следующие элементы: 1) война – Гражданская; 2) ответ на вопрос: главная трудность состояла в том, что противник занимал очень выгодный оборонительный район, прикрытый бронепоездами, которые не знали недостатка в огнеприпасах; 3) военачальник, например: А.И. Деникин. Может быть указан другой военачальник	
Правильно указаны война и военачальник, дан ответ на вопрос	3
Правильно указаны два элемента ответа	2
Правильно указан один любой элемент ответа	1
Ответ неправильный	0
Максимальный балл	*3*

100balnik.ru

© 2021 Федеральная служба по надзору в сфере образования и науки

7

Содержание верного ответа и указания по оцениванию (допускаются иные формулировки ответа, не искажающие его смысла)	**Баллы**
Правильный ответ должен содержать следующие элементы: 1) год – 1941 г.; 2) ответ на вопрос, например: изображение разорванного Договора о ненападении между СССР и Германией означает, что Германия, прикрываясь Договором, скрывала планы нападения на СССР, а затем, напав на СССР, нарушила Договор. Может быть дан другой ответ на вопрос	
Правильно указан год и дан ответ на вопрос	2
Правильно указан только один любой элемент ответа	1
Ответ неправильный	0
Максимальный балл	*2*

13

Содержание верного ответа и указания по оцениванию (допускаются иные формулировки ответа, не искажающие его смысла)	**Баллы**
Правильный ответ должен содержать следующие элементы: 1) ответ на первый вопрос: хозяйственно-экономическую (или экономическую, или хозяйственную, или бытовую, или хозяйственно-бытовую); 2) ответ на второй вопрос: потому что семья Петровых состоит из представителей двух поколений: родителей и детей; *(Ответ, который представляет собой простое перечисление членов семьи, или указание числа «4», не засчитывается).* 3) ответ на третий вопрос, например: – как распределяются домашние обязанности; – как принимаются решения в семье; (Ответ на третий вопрос засчитывается только при наличии двух или более сформулированных вопросов, ответы на которые характеризуют семьи данного типа.) 4) ответ на четвёртый вопрос – два типа источников: – заработная плата; – проценты по депозиту. (Данный элемент ответа засчитывается только при указании двух типов источников дохода.) Элементы ответа могут быть приведены в других формулировках, адекватно отражающих их сущность	
Правильно даны ответы на четыре вопроса	3
Правильно даны ответы на любые три вопроса	2
Правильно даны ответы на любые два вопроса	1
Правильно дан ответ на один любой вопрос. ИЛИ Приведены рассуждения общего характера, не соответствующие требованию задания. ИЛИ Ответ неправильный	0
Максимальный балл	*3*

© 2021 Федеральная служба по надзору в сфере образования и науки

14

Содержание верного ответа и указания по оцениванию (допускаются иные формулировки ответа, не искажающие его смысла)	**Баллы**
В правильном ответе должны быть сформулированы выводы и высказаны предположения: а) о сходстве, например: одинаковые доли опрошенных обеих возрастных групп указали приём коммунальных платежей (возможное объяснение, например: это одна из услуг, с которой вынуждены сталкиваться все); б) о различии, например: 60-летние стремятся внести вклады на депозиты, а 30-летние предпочитают кредитование (возможное объяснение, например: старшее поколение, как правило, уже имеет определённый стабильный доход и сбережения, поэтому они склонны их преумножать, делая вклады на банковские депозиты, стремясь накопить определённую сумму для стабильного дохода. У более молодых людей денег, как правило, на все нужды не хватает, и они предпочитают брать кредиты). Могут быть сформулированы другие выводы о сходстве и различии, высказаны иные уместные предположения	
Сформулированы два вывода, по каждому из них высказано уместное предположение	4
Сформулированы один-два вывода, по любому одному из них высказано уместное предположение	3
Сформулированы только два вывода	2
Сформулирован только один вывод	1
Приведены рассуждения общего характера, не соответствующие требованию задания. ИЛИ Ответ неправильный	0
Максимальный балл	*4*

15

Содержание верного ответа и указания по оцениванию (допускаются иные формулировки ответа, не искажающие его смысла)	**Баллы**
Могут быть названы следующие правила: 1) Позвонить в Единую службу спасения 01 (для операторов сотовой связи 01, 112). 2) Попытаться потушить подручными средствами (водой, мокрой плотной тканью, землёй из-под цветов и т. п.). 3) Если огонь набирает силу, то немедленно покинуть балкон, плотно закрыв за собой дверь. Закрыть все форточки и двери, не создавать сквозняка. 4) В ходе тушения можно выбрасывать горящие вещи и предметы вниз, убедившись предварительно, что там нет людей. 5) Предупредить соседей с верхних этажей, что у вас пожар. Могут быть названы иные правила безопасного поведения	
Правильно названы не менее четырёх правил (в соответствии с требованием задания)	2
Правильно названы только два-три правила (в соответствии с требованием задания)	1
Правильно названо только одно правило (в соответствии с требованием задания). ИЛИ Приведены рассуждения общего характера, не соответствующие требованию задания. ИЛИ Ответ неправильный	0
Максимальный балл	*2*

© 2021 Федеральная служба по надзору в сфере образования и науки

16

Содержание верного ответа и указания по оцениванию (допускаются иные формулировки ответа, не искажающие его смысла)	**Баллы**
Правильный ответ должен содержать следующие элементы: 1) объяснение опасности, например: – если человек заблудился, он начинает паниковать, у него ухудшается общее состояние здоровья, обостряются хронические болезни, он может получить различные травмы; – человека подстерегают жажда, голод, холод, и как следствие – гибель; (Может быть дано иное объяснение.) 2) действия в заданной ситуации, например: – успокоиться, не паниковать; – немедленно связаться со службой спасения по телефону «112»; – постараться выйти на знакомое Вам место и вернуться к знакомому или запланированному маршруту; – постараться определить направление движения, сориентироваться на местности по карте; – не сходить с дорог, просек и троп; – если заблудившийся вышел самостоятельно, сообщить об этом в службу спасения. Могут быть названы иные действия	
Правильно дано объяснение опасности, названы не менее двух действий (в соответствии с требованием задания)	2
Правильно дано объяснение опасности, названо только одно действие (в соответствии с требованием задания). ИЛИ Правильно названы не менее двух действий (в соответствии с требованием задания)	1
Правильно дано только объяснение опасности. ИЛИ Правильно названо только одно действие (в соответствии с требованием задания). ИЛИ Приведены рассуждения общего характера, не соответствующие требованию задания. ИЛИ Ответ неправильный	0
Максимальный балл	*2*

100balnik.ru

© 2021 Федеральная служба по надзору в сфере образования и науки

22

Содержание верного ответа и указания по оцениванию (допускаются иные формулировки ответа, не искажающие его смысла)	**Баллы**
В правильном ответе должны быть даны ответы на четыре вопроса, например: 1) дата рождения, место рождения, реквизиты паспорта гражданина, СНИЛС, ИНН и др.; *(Ответ на первый вопрос засчитывается только при правильном указании не менее четырёх позиций.)* 2) ограничение доступа для пользователя, не прошедшего процедуру подтверждения личности, необходимо для того, чтобы злоумышленник, завладевший персональными данными гражданина, не смог зарегистрироваться и получать услуги вместо него; (Ответ на вопрос может быть дан в иной, близкой по смыслу формулировке.) 3) удобство хранения персональных данных на портале «Госуслуги» с подтверждённым уровнем регистрации состоит в том, что нет необходимости заполнять формы с требуемыми персональными данными каждый раз, когда необходимо получить какую-либо электронную услугу, – достаточно заполнить эти сведения один раз и пройти подтверждение регистрации ИЛИ удобство состоит в том, что при утере документов их проще восстановить; (Может быть дано иное объяснение удобства.) 4) электронный заказ справок позволяет сэкономить время на визит в соответствующее учреждение ИЛИ электронный заказ справок более безопасен по сравнению с очным визитом в учреждение при неблагоприятной эпидемиологической обстановке. Может быть дано иное объяснение	
Даны правильные ответы на четыре вопроса	4
Даны правильные ответы только на любые три вопроса	3
Даны правильные ответы только на любые два вопроса	2
Дан правильный ответ только на один любой вопрос	1
Приведены рассуждения общего характера, не соответствующие требованию задания. ИЛИ Ответ неправильный	0
Максимальный балл	*4*

Система оценивания выполнения всей работы

Максимальный балл за выполнение работы – 39.

Рекомендации по переводу первичных баллов в отметки по пятибалльной шкале

Отметка по пятибалльной шкале	**«2»**	**«3»**	**«4»**	**«5»**
Первичные баллы	0–13	14–22	23–31	32–39

© 2021 Федеральная служба по надзору в сфере образования и науки