МЭ ИС 9 Муниципальный этап ВсОШ, история, 9 класс, 2020/21

14:55—18:45 26 ноя 2020 г.

№ 1

3 балла

Какие из перечисленных событий относятся к тому же десятилетию, что и появление источника, фрагмент которого приведён?

«Таким образом дело, которое МЫ всегда считали делом всей России, окончено; преступники восприми достойную их казнь; Отечество очищено от следствий заразы, столько лет среди его таившейся. Но усилия злонамеренных, хотя и в тесных пределах заключённые, тем не менее были деятельны. Язва была глубока и по самой сокровенности её опасна. Мысль, что главным её предметом, первою целию умыслов была жизнь АЛЕКСАНДРА Благословенного, поражала вместе ужасом, омерзением и прискорбием. Другие соображения тревожили и утомляли внимание: надлежало в самых необходимых изысканиях, по крайней возможности, щадить, не коснуться, не оскорбить напрасным подозрением невинность. Тот же Промысел, Коему благоугодно было при самом начале Царствования НАШЕГО, среди бесчисленных забот и попечений, поставить НАС на сём пути скорбном и многотрудном, дал НАМ крепость и силу совершить его».

- [ ] **подписание Гюлистанского мирного договора с Персией**
- [ ] **подписание Туркманчайского мирного договора с Персией**
- [ ] **принятие «чугунного» цензурного устава**
- [ ] **принятие Органического статута Царства Польского**
- [ ] **создание III отделения Собственной Его Императорского Величества канцелярии**
- [ ] **учреждение Государственного совета Российской империи**

№ 2

3 балла

Время активной деятельности каких из перечисленных исторических персонажей российской истории относится к тому же веку, что и создание источника, фрагмент которого приведён?
«И тако мы, в разсуждении упомянутых обстоятельств, по данной нам от всевышнего власти, из высочайшей нашей императорской милости, отныне впредь на вечные времена и в потомственные роды жалуем всему российскому благородному дворянству вольность и свободу, кои могут службу продолжать, как в нашей империи, так и в прочих европейских союзных нам державах, на основании следующего узаконения …»

- [ ] **А.П. Волынский**
- [ ] **А.Д. Меншиков**
- [ ] **И.Ф. Милославский**
- [ ] **С.П. Трубецкой**
- [ ] **И.А. Хованский**
- [ ] **И.И. Шувалов**

№ 3

3 балла

Возникновение каких из перечисленных терминов (выражений) в России относится к тому же царствованию, что и источник, фрагмент которого приведён?
«Бояром и Окольничим и Думным и Ближним людем и Стольником и Стряпчим и Дворяном Московским и Дьяком и Жильцом и всех чинов служилым и приказным и торговым людем, и людем Боярским, на Москве и в городех, носить платья, венгерские кафтаны, верхние длиною по подвязку, а исподние короче верхних, тем же подобием; и то платье кто успеет сделать, носить с Богоявлениева дни нынешняго года; а кто к тому дни сделать не успеет, и тем делать и носить, кончав с нынешния сырныя недели».

- [ ] **«всесословная воинская повинность»**
- [ ] **«посессионные крестьяне»**
- [ ] **«ревизские сказки»**
- [ ] **«рекрутчина»**

- [ ] «урочные лета»
- [ ] «черносошные крестьяне»

№ 4

8 баллов

В истории существует значительное число устойчивых выражений. Установите соответствие между выражением и событием (процессом, явлением), с которым связано его появление.

«Ночь чудес»	гражданская война в Англии
«Прайдова чистка»	правление Ивана IV Грозного
«Семибоярщина»	религиозные войны во Франции
«Варфоломеевская ночь»	смутное время в России
	французская революция конца XVIII века

№ 5

2 балла

Найдите «лишний», т. е. выбивающийся из принципа образования ряда, элемент.



№ 6

2 балла

Найдите «лишний», т. е. выбивающийся из принципа образования ряда, элемент.



№ 7

5 баллов

Расположите в хронологической последовательности события русско-турецкой войны 1787–1791 гг.

Открыть текст в отдельном окне.

А) «Между тем, как Капитан-Паша употреблял все усилия, чтобы отразить неприятелей, сии последние отправили несколько брандеров, наполненных нефтью и другими горючими веществами, против нашего Флота. Некоторые из наших кораблей им удалось зажечь; а другие, поспешая к ним на помощь и соединяясь с ними, также объяты были пламенем и сгорели. Войска, находившиеся на других кораблях, рассеялись без сражения по берегам Смирны и другим местам. Капитань-Паша и Джезайрлю-Хасан Бей были ранены. Али, правитель корабля, и другие офицеры, желая спасти себя вплавь, погибли в волнах моря».

Б) «Армия турецкая бежала до речки Бузео, достигши оной, в разлитии ея, великий визирь с передовыми переехал мост на правый берег и его поднял. Турецкая конница от трепета бросилась вплавь и тысячьми тонула; оставшая на левом берегу конница и пехота разсеялись во все стороны безостатку, ушедшие обозы с вещьми, припасами и под ними скотом разграблены волоскими поселянами. На сём берегу лежало множество раненых, умерших и умирающих. Визири ныне в Браилове; смерть пожрала из армии его 10 000 человек. Наш урон простирается убитых всего 45 человек, ранено тяжело 29, легко 104 человека. Цесарский урон не многим превосходнее нашего».

В) «Поручили Генералу Суворову начальство над деташаментом (отрядом), для прикрытия сей косы и входу в Таврическую Область. Перед крепостью устроили большую батарею для прикрытия берега, который очень песчан и плоский, а спереди сделаны были три ложамента, один за другим, вдоль по широте всей косы. Через несколько дней увидели, как и ожидали, несколько Турецких флагов, приближающихся от Очакова к сему берегу. Они в некоторой отдалённости от берега стали на якорях, и к вечеру начали бомбардировать батарею…

Г) «Всемилостивейшая государыня, Вашему Императорскому Величеству всемилостивейшей Государыне чрез реляции от господина генерала-фельдмаршала графа фон Миниха уповаю довольно известно, что коим образом армия В.И. Вёл-ва, призвав Бога в помощь, всего христианского неприятеля, стоящего в лагере весьма им в способном месте и зело укреплённом окопами и артиллериею, атаковала, которой с оною в сильное вступил конницею и пехотою с прежестокими напусками и азартом сражение, так что с обою сторону пушечный, ружейный и от метания бомб беспрерывно неумолкаемый огонь был…»

Д) «Жестокий бой, продолжавшийся внутри крепости, чрез шесть часов с половиною, с помощью божиею, наконец решился в новую России славу. Мужество начальников, ревность и расторопность штаб- и обер-офицеров и беспримерная храбрость солдат одержали над многочисленным неприятелем, отчаянно защищавшимся, совершенную поверхность, и в час пополудни победа украсила оружие наше новыми лаврами. Оставались ещё в трёх местах засевшие неприятели к единому своему спасению в одной мечете, в двух каменных ханах и в казематной каменной батарее. Все они прислали к господину генерал-порутчику и кавалеру Потёмкину своих чиновников при наших офицерах просить пощады. <…> Таким образом совершена победа».

Отрывок А	1
Отрывок Б	2
Отрывок В	3
Отрывок Г	4
Отрывок Д	5

№ 8

5 баллов

Расположите в хронологической последовательности события истории Византийской империи.

Открыть текст в отдельном окне.

А) Это церковно-политическое движение, признанное впоследствии еретическим, включало в себя отрицание святости икон как образов христианских святых. Нередко иконы подвергались уничтожению, в результате чего немалое количество христианских святынь было утрачено.

Б) Правление этого императора ознаменовалось войнами за восстановление целостности единой Римской империи во главе с Византией. Были захвачены территории королевств остготов и вандалов, велись продолжительные войны с государством Сасанидов. Этот правитель отметился также изданием особого собрания норм права, которое представляло собой кодификацию норм римского права.

В) В ходе этого события Константинополь был взят и разграблен султаном Мехмедом II Завоевателем, чьи войска в течение долгого времени представляли значительную угрозу столице империи. По преданию, император Византии Константин XI Палеолог принял смерть на стенах города, до последнего вздоха защищая столицу своего государства.

Г) Это событие, произошедшее во время правления императора Феодосия I Великого, лишь закрепило то неформальное разделение империи, которое в течение долгого времени уже существовало. Две столицы стали теперь центрами двух отдельных империй.

Д) Это событие стало итогом IV крестового похода, в ходе которого силы крестоносцев, вовлечённых в противостояние византийских императоров, сначала оказались у стен столицы Византии, а затем разграбили город, положив тем самым конец истории Византийской империи.

Отрывок А	1
Отрывок Б	2
Отрывок В	3

Отрывок Г	4
Отрывок Д	5

№ 9

5 баллов

Установите соответствие между описаниями известных государственных и общественных деятелей России XVIII в. и названиями общественно-политических сочинений их авторства.

Высокопоставленный чиновник, губернатор двух областей, личный помощник Екатерины II	«Записка о древней и новой России»
Известный проповедник и государственный деятель, произнёсший речь в ходе погребения Петра I	«Гром победы, раздавайся»
Воспитанник пажеского корпуса, впоследствии государственный служащий по ведомству Коммерц-коллегии	«О повреждении нравов в России»
Русский дипломат, побывавший в заложниках у турецкого султана	«Правда воли монаршей»
Член Уложенный комиссии, официально назначенный на должность историографа	«Путешествие из Петербурга в Москву»
	«Рассуждение о причинах Свейской войны»

№ 10

10 баллов

Внимательно ознакомьтесь с приведённой таблицей и оцените правильность либо ошибочность выводов, сделанных на её основе. Укажите все верные выводы.

Средний экспорт и импорт в европейской торговле России в 1842–1846 гг. (в рублях серебром)

Страна (регион)	Экспорт			Импорт
	Хлеба	Прочих товаров	Всего	
Великобритания	2 196 834	29 522 844	31 719 678	22 007 790
Франция	2 939 613	3 988 875	6 928 488	8 446 475
Ганзейские города	192 679	2 170 540	2 363 219	7 575 158
Швеция и Норвегия	172 849	1 127 166	1 300 015	1 409 028
Дания	113 746	1 423 920	1 537 666	349 116
Пруссия	885 038	3 902 459	4 787 497	5 660 474
Австрия	781 726	3 234 850	4 016 576	3 232 552
Турция и Греция	3 009 267	1 627 735	4 637 002	3 566 726
Италия	4 133 261	569 694	4 702 955	2 771 665
Испания и Португалия	114	555 002	555 116	2 363 251
Америка	7 964	1 888 128	1 896 092	6 119 609
Всего	**14 433 091**	**50 011 213**	**64 444 304**	**66 194 989**

- [ ] **Самая значительная доля вывоза хлеба в рассматриваемый период приходилась на Италию.**
- [ ] **Приведённые в таблице данные позволяют говорить о существовании в России в рассматриваемый период положительного сальдо торгового баланса с европейскими странами (регионами).**
- [ ] **В торговле с пятью странами (регионами) из одиннадцати приведённых в таблице объём экспорта преобладает над объёмом импорта.**
- [ ] **В структуре российского экспорта в период, данные о котором приведены в таблице, экспорт хлеба составлял менее четверти от общего объёма экспорта.**
- [ ] **Приведённая в таблице информация позволяет говорить о проведении в рассматриваемый период в России протекционистской внешнеторговой политики по отношению к европейским странам (регионам).**
- [ ] **Практически половина всего объёма российского экспорта в рассматриваемый период приходилась на экспорт в одно государство.**
- [ ] **В торговле только с тремя странами (регионами) из одиннадцати приведённых в таблице экспорт хлеба составлял бóльшую часть в общем объёме экспорта.**
- [ ] **Третье место по объёму закупаемой в России продукции среди стран (регионов), приведённых в таблице, в рассматриваемый период занимала Пруссия.**
- [ ] **Около трети всего объёма российского импорта в рассматриваемый период приходилось на Францию.**

☐ **Наименьшая доля вывоза хлеба из России приходилась в рассматриваемый период на Америку.**

№ 11 — 12

12 баллов

Перед вами – фрагменты писем французского художника Ораса Верне, который в 1842–1843 гг. жил и работал при дворе российского императора Николая I и даже совершил вместе с ним путешествие по Российской империи.

Напишите названия городов, которым посвящены соответствующие фрагменты.

Открыть текст в отдельном окне.

А) «Я сел в коляску на шесть часов раньше императора, чтобы остановиться в …, где хотел осмотреть одну живописную церковь, построенную в 900 году (в действительности была построена в 1045–1050 гг. – *Прим. сост.*). Её бронзовые врата с рельефами привезены из Константинополя. Эта древность любопытна смешением священного и мирского. В остальном ничего примечательного. Внутри хорошо сохранившаяся греческая живопись. Само здание более всего отличается свои причудливым видом. Оно всё состоит как бы из цилиндров, приставленных друг к другу».

Ответ

Б) «Однако в … я сопровождал императора, когда он посетил великолепные строения из кирпича и железа, предназначенные для знаменитой оружейной мануфактуры, сгоревшей несколько лет назад. Даже в Англии я не видел ничего подобного по основательности и особливо по красоте зданий. Русские инженеры, несомненно, весьма искусны, но каковы и средства, предоставляемые императором в их распоряжение!»

Ответ

В) «Сей город чрезвычайно живописен… В нём великолепная крепость, и ещё некоторое время назад … принадлежал туркам. Церковь доминиканского монастыря находится в бывшей мечети, а кафедра проповедника на том самом месте, где мулла возносил свои молитвы. Престранная амальгама! Мне показалось, что император с неприязнью относится к жителям сего города – по прибытии он сразу же велел погасить иллюминацию. Возможно, на его дурное настроение влияют притязания папы. До сего времени русские государи были весьма терпимы, однако нынешний царь, похоже, намерен отказаться от подобной терпимости. Но ему следует быть осторожнее! Жестокие репрессии не укрепят его трон, а у доминиканцев ужасная репутация. Их монастырь на границе с Галицией может послужить в качестве предлога».

Ответ

Г) «Сегодня, поклонившись иконам, император посетил построенный им дворец. Это гигантское сооружение в византийском стиле, соответствующее окружающим его строениям. По крайней мере здесь можно видеть национальную архитектуру – в деталях чувствуется что-то татарское. Ныне варварское сие исполнение уже исчезло, уступив место всем усовершенствованиям прогресса цивилизации. Мне кажется, что каждый художник должен стремиться именно к такой цели, чтобы соединить прошлое с будущим».

Ответ

Д) «Восторженный приём был в …, который за последние пятнадцать лет невероятно поднялся. Число жителей увеличилось с пятнадцати тысяч до пятидесяти двух. В сем городе находятся рынки зерна и шерсти, вывозимых через Одессу. За всё время нашего путешествия только здесь увидел я какие-то признаки процветания. Начиная с этого места страна принадлежит евреям, которые составляют более половины всего населения; они богаты, но вынуждены скрывать это, чтобы платить меньше налогов».

Ответ

Е) «А пока у нас празднуют Св. Николая. Роскошь и великолепие просто сказочные. Такого богослужения, как здесь, нигде и никогда не бывало. Везде серебро и алмазы. Новоотстроенный Зимний дворец ни в чём не уступает виденному мной при других дворах Европы, а скорее, даже превосходит их тем, что бросается в глаза».

Ответ

12 баллов

Установите соответствие между фрагментом и цифровым обозначением описываемого в них города на карте.

Открыть текст в отдельном окне.

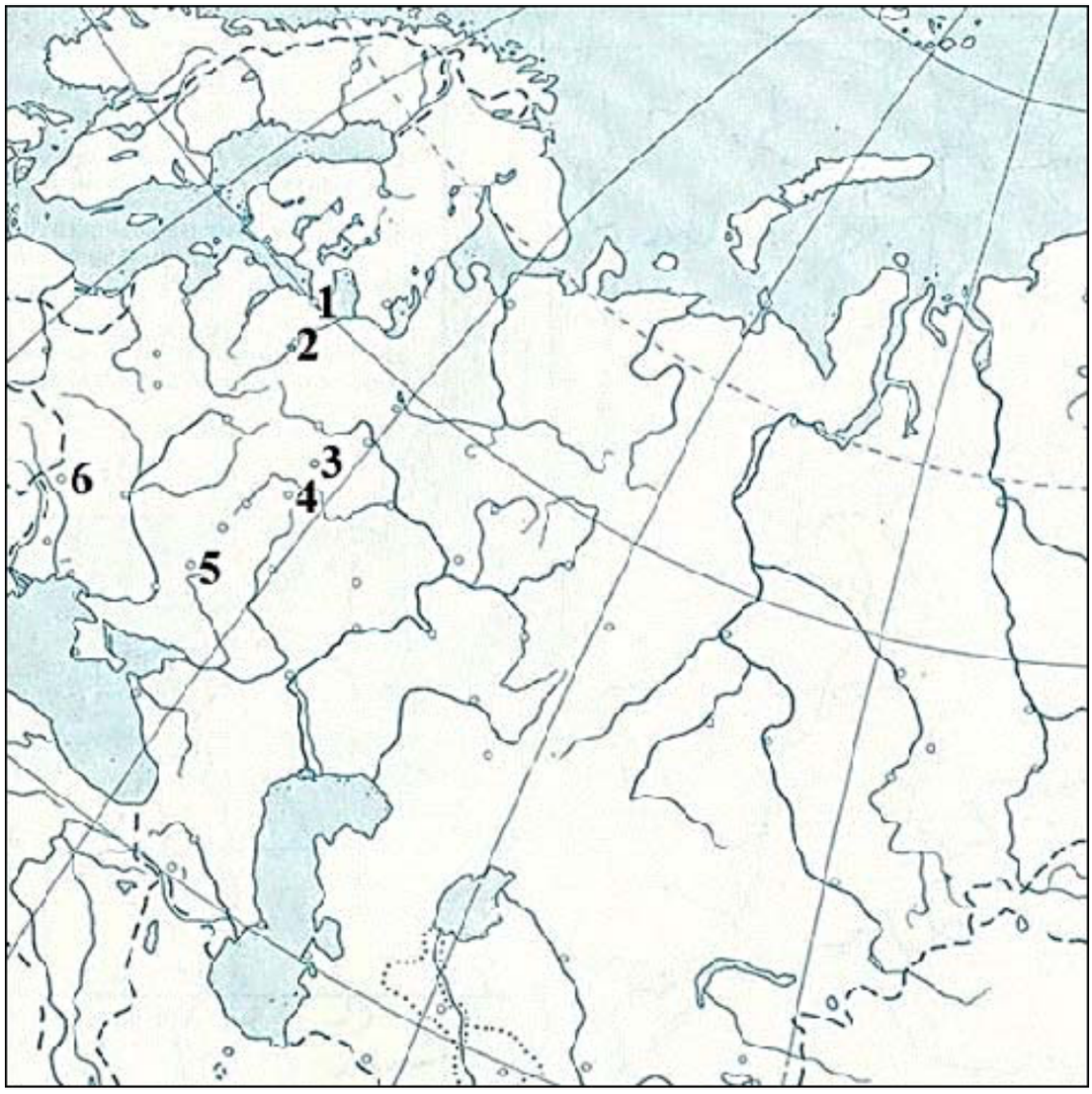

Фрагмент А	1
Фрагмент Б	2
Фрагмент В	3
Фрагмент Г	4
Фрагмент Д	5
Фрагмент Е	6

№ 13

35 баллов

Открыть текст в отдельном окне

Одна из самых важных сторон деятельности историка – анализ источника, умение извлечь из него необходимую информацию. Перед Вами – проект «Фундаментальных и непременных законов», подготовленный И.И. Шуваловым по предписанию императрицы Елизаветы Петровны в 1760–1761 гг. Напишите на его основе небольшую работу на тему **«Политическое самосознание дворянства к началу 60-х гг. XVIII в.»** .

По высочайшему Вашего императорского величества указу пункты фундаментальных законов:
1. Утвердить самодержавною властию и присягою дабы все государи Российскаго престола и жёны их и дети и мужеск и женск пол были греческого православнаго закона.
2. Все россияне в оном законе постоянно, навсегда пребудут.
3. Все церкви, монастыри, духовенство сохранят свои права по законам государя императора Петра Великаго.
4. Святейший Синод будет состоять из … человек на основании их преимуществ и должностей, по узакононениям государя императора Петра Великаго.
5. Сенат имеет состоять из 20 или … персон. Всякий член должен быть российской подданный и греческаго закона.
6. Быть трём фельдмаршалам, двум Российским и одному иностранному, естли нужда потребует.
7. Адмиралам двум русским и одному иностранному, естли нужда потребует.
8. Всем президентам, губернаторам быть здешним подданным.
9. Гвардии полки состоят из здешних подданных, три части русских, а четвёртая лифляндцов, эстонцов и прочих завоёванных провинций за оказанныя ими услуги и ревность к нашей службе.
10. Армея наша, генерал-, штаб- и обер-офицеры имеют состоять из трёх частей русских, а четвёртая лифляндцов, эстонцов и иностранных.
11. Флот, флагманы, офицеры и протчие: три части русских, четвёртая лифляндцов и прочих иностранных.
12. Во все оныя места лифляндцы и эстляндцы имеют преимущество при вступлении в службу пред иностранными.
13. Впадшее в преступление дворянство теряет только конфискациею нажитое собою имение, а не родовое.
14. От безчестной политической казни дворянство освободить.
15. Дворянину служить 26 лет, считая от времени действительной службы его, то есть от 20 лет возраста.
16. Отставным солдатам всех по инвалидным своим дачам распределять без всякого замедления, и прилагать труд ко установлению их состояния по нашему намерению.

17. О купцах и крестьянах сделать рассмотрение и стараться их состояние сделать полезнейшим отечеству и им самим.

План работы

1. Охарактеризуйте исторические обстоятельства, которые могли вызвать появление документа. Приведите четыре положения.
2. Охарактеризуйте источники и возможности, которые он даёт для освещения темы. Приведите три положения.
3. Выделите основные идеи проекта «Фундаментальных и непременных законов» И.И. Шувалова, вытекающие как из текста в целом, так и из отдельных его положений. Приведите шесть положений.
4. Сделайте два принципиальных вывода о состоянии политического самосознания дворянства к началу 60-х гг. XVIII в.

Ответ

№ 14

35 баллов

Вам предстоит работать с высказываниями историков и современников о событиях и деятелях отечественной истории. Выберите из них одно, которое станет темой вашего сочинения-эссе. Ваша задача – сформулировать собственное отношение к данному утверждению и обосновать его аргументами, представляющимися вам наиболее существенными. При выборе темы исходите из того, что вы:
1) ясно понимаете смысл высказывания и можете сформулировать на его основе проблему, которую вы будете рассматривать в своём эссе, и поставить три задачи вашей работы, которые необходимо решить для рассмотрения этой проблемы;
2) можете выразить своё отношение к высказыванию (аргументированно согласиться с автором либо полностью или частично опровергнуть его высказывание);
3) располагаете конкретными знаниями (факты, статистические данные, точки зрения, примеры) по данной теме;
4) владеете терминами, необходимыми для грамотного изложения своей точки зрения.

Ваше эссе будет оцениваться по следующим критериям:
- постановка проблемы и задач;
- раскрытие трёх задач;
- знание различных точек зрения по избранной теме;
- творческий характер восприятия темы, её осмысления;
- выводы.

1. «Добившись единовластия в Русской Земле, Владимир обращается к задачам её внутреннего благоустройства. Первой задачей оказывается поиск религии, которая могла бы объединить разноплемённые земли» (В.Я. Петрухин).

2. «Разгром Мамая на Куликовом поле способствовал объединению двух частей Орды под властью законного хана. Объективно Тохтамыш получил больше конкретной политической выгоды от поражения Мамая, чем Дмитрий Донской» (А.А. Горский).

3. «Крах Ивана Грозного – это результат конфликта правителя с обществом. Россия шагнула вперёд, но это стоило таких невзгод, что последовал мощный взрыв крестьянской войны» (В.Т. Пашуто).

4. «Меланхоличность преобразовательской деятельности времени Фёдора помогает понять ту ярость, с которой Пётр I рвал с московской стариной, – именно вялые действия предшественников на троне убеждали царя-реформатора в необходимости более решительных действий» (П.В. Седов).

5. «Нельзя не обратить внимания и на откровенно имперский характер политики Екатерины II, как внутри страны, так и за её пределами» (А.Б. Каменский).

6. «С отставкой и ссылкой М.М. Сперанского уходила эпоха реформ – время свежих идей и

экспериментов. Но в её недрах зарождалась следующая эпоха – движения декабристов» (Г.Е. Миронов).

7. «Великие реформы Александра II не затронули высших органов государственного управления, они не изменили сословной организации общества и не ослабили политической власти поместного дворянства» (Н.И. Цимбаев).

8. «Люди, которых поток революции вынес на общественную вершину во имя бескомпромиссного разрыва с прошлым России, в 30-х годах вернулись в колею отечественной истории» (А.В. Шубин).

9. «[Под Москвой] научились побеждать... Точней было бы сказать — учились. И слово “перелом” при всей его выстраданности, при всей действительной силе контраста между июлем и декабрём сорок первого года тоже было бы точней заменить словами: “начало перелома”». (К.М. Симонов)

10. «Начало 1980-х стало временем кризиса. Очевидные следы были заметны любому гражданину страны: СССР ввязался в афганскую войну, в магазинах пропадали товары, а политическое руководство страны старело» (Р.Г. Пихоя).

Ответ